2023 届高三年级五月适应性考试

历史试题

限时：75 分钟　满分：100 分　命审题：高三历史备课组

一、选择题：本题共 16 小题，每小题 3 分，共 48 分。在每小题给出的四个选项中，只有一项符合题目要求。

1. 湖北云梦郑家湖墓地出土“中华第一长文觚”（读作 gū，是古代用来书写的木简），该觚文不见于传世记载，是一篇全新的策问类文献。全文约 700 字，字体为典型秦隶，载有谋士游说秦王“寝兵立义”之辞，“纵横”色彩浓郁，体例文风与《战国策》《战国纵横家书》近似。该觚的出土

A．是秦统一文字的实物见证　　B．可印证《战国策》内容的真实性

C．是研究秦朝的第一手资料　　D．可作为研究秦隶的重要实物资料

2. 贞观二年，唐太宗决定变隋代的义仓之税为地税，按照耕地面积每亩交纳固定数量的粮食作为实物地租，后来，地税进一步细化，除了对已经登记在册的编户耕田收取地税，也对向政府“借荒”耕种的各种个人或组织征收地税。唐朝的税制创新

A．成为政府敛财手段　　B．缓解了土地兼并问题

C．提高国家治理能力　　D．有利于缩小贫富差距

3. 北宋张方平所撰《乐全集》中记载：成都大慈寺有“九十六院，地居冲会，百工列肆，市声如雷”，僧道们“贮积谋利，坐列市贩”。这一现象反映了

A．商品经济的发展　　B．佛教盛行对儒学的冲击

C．市民文化的兴起　　D．封建政府放松人身控制

4. 契丹建国后向东扩张，灭渤海国后，包括女真、铁骊、达卢古、鼻骨德等东疆部族纷纷主动臣服，成为辽朝羁縻统治下的属国属部。辽太祖在渤海故地仿旧制建东丹国，辽太宗时诏命东丹举国西迁。辽朝在东北的扩张

A．激化了国内阶级矛盾　　B．促进了农耕与游牧文明的交流

C．加剧了民族政权对峙　　D．推动了统一多民族国家的发展

5. 我国是老虎的主产国之一，人虎矛盾贯穿古代社会始末。据学者统计，北魏至元数百年中，全国发生虎患 16 起。到明清时期，仅东南地区就出现虎患 514 次，其中明代 205 次、清代 309 次。明清时期，虎患加剧的根源在于

A．专制统治强化　　B．苛捐杂税沉重　　C．生态破坏严重　　D．人口急剧增长

6. 1872 年到 1895 年，《申报》上共出现西方传教士傅兰雅编撰的《格致汇编》457 次，仅《化学卫生论》就出现了 30 次，基本上都是广告。《格致汇编》开设“互相问答”专栏回答读者关切的卫生医药等问题。这反映了当时

A．中体西用的思想面临着挑战　　B．文明开化成为社会的新风尚

C．国民广泛接受西方卫生观念　　D．传教士拓宽西学传播的渠道

7. 1911 年武昌起义爆发，革命党人通电向全国宣布起义消息。中华民国时期，“上台要通电，下野要通电，嘉奖要通电，谴责要通电，讨伐要通电，和谈要通电。”上述现象说明清末民初的中国

A．革命成败受制于通讯变革　　B．新技术影响社会发展

C．科学观念为社会普遍认同　　D．民众的政治觉悟提高

8. 1937 年 11 月在武汉成立了由国民党军事委员会宣传部下属的国际宣传处，该处多次组织外国记者赴台儿庄等地采访，并在重庆专门建造外国记者招待所。1942 年初，重庆成了名副其实的“远东战场的新闻中心”。这反映了当时的中国

A．重视海外宣传与军事斗争的配合　　B．国共合作抗战引起国际社会瞩目

C．英美逐渐加强对中国抗战的支援　　D．希望依靠外交手段解决中日战事

9. 新中国成立后，风景木刻版画逐渐兴起。图 1 是 1959 年创作的《征服黄河》，展现人们使用大型吊车的场景。图 2 是 1960 年创作的《备耕》，展现工人们在庭院中修理拖拉机，为进入田间劳作做准备的情景。这两幅作品的共性在于



图 1



图 2

A．体现了国民经济调整成效显著　　B．展现出农村生产关系的深刻变革

C．突出了工业化建设的时代主题　　D．反映出片面追求经济建设高速度

10. 2012 年姚明宣布退役时，美国一报刊评论指出，姚明是中国新的影响力延伸到西方的一张面孔。2022 年，姚明被任命为北京冬奥会形象大使。姚明、谷爱凌、苏翊鸣等体育明星在我国国际公共外交活动中开始扮演越来越重要的角色。这一现象说明我国

A．改革开放伟大成就举世瞩目　　B．加快了融入经济全球化的步伐

C．日益重视对外宣传中国形象　　D．开始发挥体育外交的重要功能

11. 出土于埃及的《纳尔迈调色板》是一块盾形石板（如图 3），见证了公元前 3100 年古埃及文字发展中“以字注画”的阶段。重大事件是以图画形式完成，其中人物、地点等重要信息标注文字。据学者研究，这种形式最初诞生于美索不达米亚地区。据此可知当时的埃及

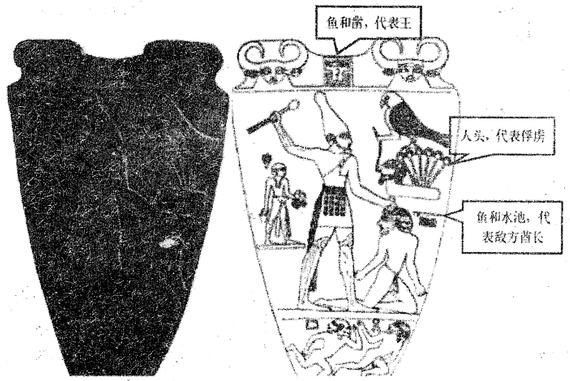

图 3

（正面王冠是代表上埃及的白冠，反面王冠是代表下埃及的红冠）

A．已经形成了较成熟的楔形文字体系　　B．在与西亚文明的交流中受其影响

C．在王的领导下进行统一埃及的战争　　D．通过艺术作品宣扬君权神授观念

12．地理大发现后，罗马教廷不断发布诏令，授予西班牙等国对已发现的、不属于任何基督教国家的土地享有占取权。欧洲国际法学家基于自然资源的丰俭不定和土著缺乏开发能力的双重推断，认定殖民者“发现”后即有权索取、开发。对这些史实认识全面的是

A．罗马教廷的权威受到世俗力量挑战　　B．欧洲国际法理论的科学性不断增强

C．二者都为西欧的殖民扩张提供依据　　D．国际治理体系受到多方力量的影响

13．图 4 为 1883 年美国画家所绘漫画。漫画中徽号为“垄断”的铁甲骑士，手持长枪，坐在火车机车头上，威风凛凛；其对手是骑在瘦马上的工装男子，手拿一把铁锤，光着脚丫，欲与面前的庞然大物斗几个回合。该漫画揭示了



图 4

A．工业革命推动生产力发展

B．垄断组织的剥削加剧劳资矛盾

C．美国的政治局势动荡不安

D．工人运动受到科学理论的指导

14．下面四幅地图反映了二战中不同时期的战场形势。按时间先后排序，正确的是

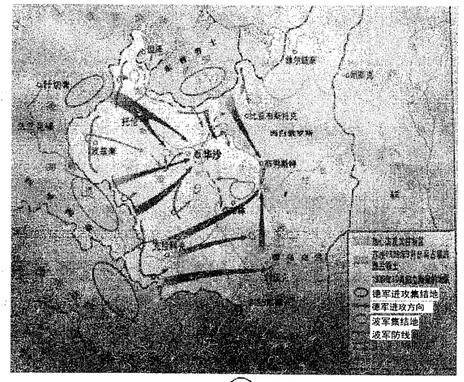

①

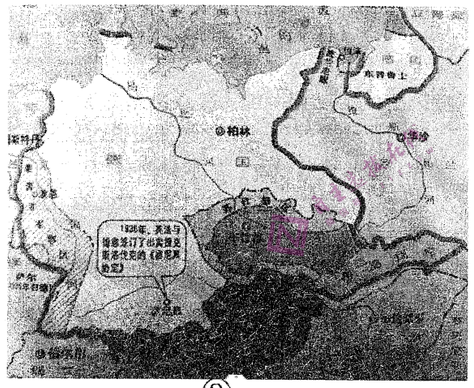

②

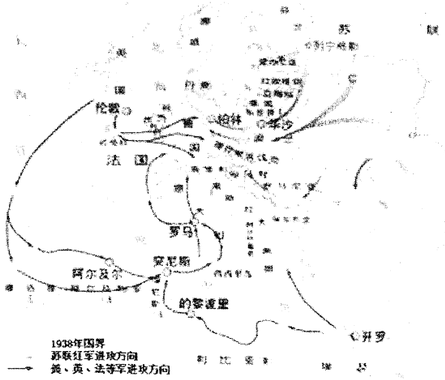

③

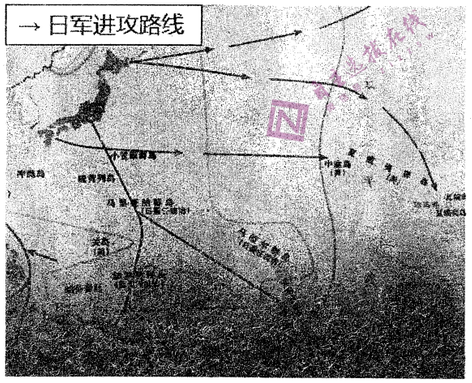

④

A．①②③④　　B．②①④③　　C．②①③④　　D．①④②③

15．1952 年，苏联对农业的一项调查显示：集体农庄的播种机械化程度达到 87%，联合收割机收割的农作物达到 70%，棉花种植机械化程度 98%。然而，1952 年的粮食产量和一战前 1913 年粮食产量差不多。这说明苏联

A．农业生产受工业化水平制约　　B．经济体制改革势在必行

C．社会主义工业化的进程加快　　D．经济发展受冷战的影响

16．二战后，澳大利亚政府以“移民即繁荣”为战略导向，制订大规模引进移民计划，引入的移民当中技术人员的比例逐年上升：20 世纪 50 年代为 32%，1980—1986 年为 49.1%，大大超过了澳大利亚本地技术工人的比例。澳大利亚这一移民的趋势

A．适应了新兴产业发展的需要　　B．改变了全球劳动力市场结构

C．冲击了本土主流文化的地位　　D．推动了世界多极化发展趋势

二、非选择题：本题共 4 小题，共 52 分。

17.【古代美育】（14 分）

材料

远古时期，乐与舞相结合的艺术形式主要用于祭祀活动。在殷周时期，美育实践已经脱离了宗教、祭祀活动的束缚，分化成了“诗教”“乐教”“礼教”等形式。西周时期是礼乐建立的形成期，“礼”实际是一种行为标准或是一种政治标准，在现实生活中以“礼”约束人们的行为，在精神生活中以“乐”桎梏人们的思想。

在春秋战国时期诸子百家竞相争鸣的时代，孔子曾以“六艺”教授弟子，强调诗、礼、乐三者在培养完善人格中扮演着不同的角色，从侧面也可以看出孔子所强调的以乐育人的教育思想。

自秦汉后，中国的“乐”转化为普施于大众的“礼教文化”。汉代音乐理论著作《乐记》记载：“治世之音安以乐，其政和；乱世之音怨以怒，其政乖；亡国之音哀以思，其民困。声音之道，与政通矣。”

自魏晋南北朝以后，以“礼乐”为核心的美育已经逐渐淡化了其教化的社会功用，转而向审美化、娱乐化发展。隋唐后，随着社会的不断开放，美育已经不仅仅是“乐、舞、诗”三种途径，而是逐步加入了杂剧、小说、传奇等形态各异的艺术种类。

——摘编自曹健《中国古代的美育实践与美育意识》

（1）依据材料，概括中国古代美育的发展历程。（6 分）

（2）依据材料并结合所学知识，分析影响中国古代美育发展的主要因素，以及中国古代美育的社会价值。（8 分）

18.【模范评选】（14 分）

材料一

劳动模范评选制度起源于陕甘宁边区评选劳动英雄和模范工作者运动。1939 年，边区政府陆续颁布了《陕甘宁边区人民生产奖励条例》、《督导民众生产运动奖励条例》等，对在生产运动中取得重大成绩者予以奖励。1940 年至 1942 年，每年都开展评选劳动英雄和模范工作者活动，三年里，在工厂、农村、政府机关和军队中涌现出吴满有、赵占魁、刘建章和李位等近千名劳动英雄。“在生产运动高涨的地方，劳动英雄已成为群众第一个尊敬的对象，而二流子却受到群众普遍的鄙视”。1945 年 1 月，毛泽东对劳模这样评价：“你们是全中华民族的模范人物，是推动各方面人民事业胜利前进的骨干，是人民政府的可靠支柱和人民政府联系广大群众的桥梁。”

——摘自李珂《楷模与引领：劳动模范评选制度的嬗变与省思》

材料二

50 年代初期	1950 年“全国工农兵劳动模范代表会议”是建国以来的首届劳模大会，评选出的新中国第一代劳模主要是革命战争中已逝的英雄和烈士，以及在新中国建设过程中积极生产的先进工作者。
1956 年开始	劳模评选开始从强调体力劳动转为强调技术创新和管理创新。这一时期的劳模人物中工人阶级占大多数，农民所占比例相对减少。
1978 年至今	1982 年，国家将奖励劳模写入宪法。1989 年后国务院规定基本每五年表彰一次全国劳模和先进工作者，一直延续至今。2005 年第一次将进城务工人员及民营企业家列入评选范围，第一次将劳模人选在全国范围内进行公示。2018 年在庆祝改革开放 40 周年大会上奖励了来自不同行业和国家的 110 位优秀代表。

——郭莹《建国以来中共劳模评选的历史演变》

（1）根据材料一并结合所学知识，简析中国共产党建立劳动模范评选制度的意义。（6 分）

（2）根据材料二并结合所学知识，概括 20 世纪五六十年代我国劳模评选的目的，并简析改革开放以来劳模评选制度变化的原因。（8 分）

19.【西方殖民扩张】（12 分）

材料一

苏伊士运河是亚洲与非洲的分界线，沟通了欧亚非三大洲，被称为世界航运的十字路口，是从大西洋到太平洋最快的横越航道。17 世纪，路易十四尝试通过谈判使法国舰队自由出入苏伊士和红海地区，保障东方最近路线的安全。财政大臣科尔伯在报告中力促政府重振这条传统商路，认为此举不但能够保障法国在尼罗河流域的特权地位，还可以在地中海和印度洋建立贸易圈。拿破仑在寄给外交大臣的信件中谈到：若法国能占领埃及，那么距离打败英国也不遥远了。到了 19 世纪中期，法国对于开凿运河的愿望更加迫切。通过不懈努力，1854 年，法国人雷赛普图获准成立国际苏伊士运河公司，主持运河的开凿。1869 年，苏伊士运河正式开通。到 19 世纪 80 年代，英国及法国与印度之间的贸易，80%以上都是经过苏伊士运河完成的。

——摘编自张思、魏一珍《19 世纪中叶法国凿通苏伊士运河原因刍议》

材料二

苏伊士运河一直被英法资本控制的“苏伊士运河公司”所霸占，成为大英帝国通往印度洋的重要航道。英国在 1922 年被迫承认埃及名义上的独立，但 1936 年又诱迫埃及与其签订了条约，规定英国可在苏伊士运河驻军，成为英国控制运河的法律依据。战后，埃及为收回运河主权做出了不懈努力。1947 年，埃及将此提交联合国安理会，未得到满意的结果。1951 年埃及议会通过决议，废除了 1936 年签订的《英埃二十年同盟条约》。1952 年纳赛尔发动革命，推翻法鲁克王朝，建立共和国。1954 年，经过谈判，英埃签订了《关于苏伊士运河基地的协定》，规定英国军队在签约后 20 个月内分批撤出埃及领土，并将那里的英国设备移交给埃及。1956 年 6 月 12 日，最后一批英军在运河基地降下英国国旗。

——摘编自温显娟《论苏伊士运河战争中的英美关系》

（1）根据材料并结合所学，概括法国开凿苏伊士运河的原因，并分析苏伊士运河开通的影响。（8 分）

（2）根据材料并结合所学，分析埃及能够收回苏伊士运河主权的原因。（4 分）

20.【人物特写】（12 分）

奥地利作家茨维格在其名著《人类的群星闪耀时》中以 14 篇历史特写描绘了人类历史上的 14 个重要人物的人生片段（特写：指聚焦于某一局部，将其突出放大）。

部分篇章摘录如下：

越过大洋的第一次通话——塞勒斯·韦斯特·菲尔德架设首条跨洋电报电缆

威尔逊的梦想与失败——威尔逊和他的十四点原则

封闭的列车——列宁 1917 年从德国回国

请选择一个中外近现代历史上的重要人物，聚焦其人生中的某一阶段，写一篇历史特写。要求：自拟论题，逻辑通顺，持论有据。