一、单项选择题：共22题，每题2分，共44分。每题只有一个选项最符合题意。

方位角是指从某点的指北方向线起，在平面上沿顺时针方向到目标方向线之间的水平夹角。我国某中学地理兴趣小组用观测日影的方法研究太阳高度和太阳方位的日变化。表1为“该小组成员某日三个时刻的观测数据表”。据此完成1~3题。

表1

北京时间	太阳高度	太阳方位角
7:40	20.9°	71.7°
12:40	86.5°	2.8°
18:40	8.0°	…

1. 该中学最有可能位于

A. 重庆　　B. 海南　　C. 福建　　D. 湖南

2. 该日北京时间12时同学们发现杆影朝向

A. 正北　　B. 西南　　C. 西北　　D. 正南

3. 下列四幅图中，与同学们绘制的当日北京时间18时40分杆影相符的是

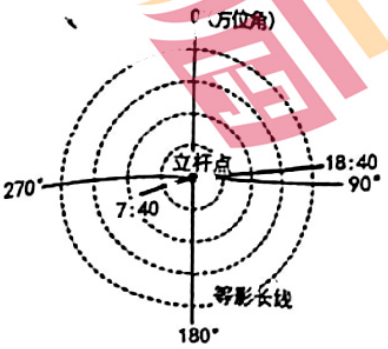
0°(方位角)
270°
90°
180°
立杆点
18:40
7:40
等影长线

A

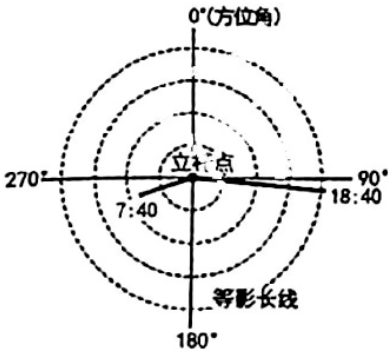
0°(方位角)
270°
90°
180°
立杆点
7:40
18:40
等影长线

B

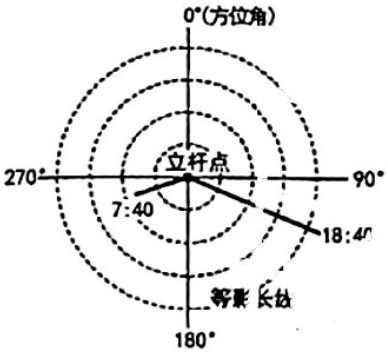
0°(方位角)
270°
90°
180°
立杆点
7:40
18:40
等影长线

C

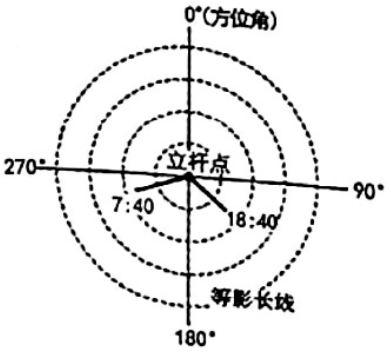
0°(方位角)
270°
90°
180°
立杆点
7:40
18:40
等影长线

D

图1为“渤海沿岸三个海洋站位置示意图”。据此完成4~5题。

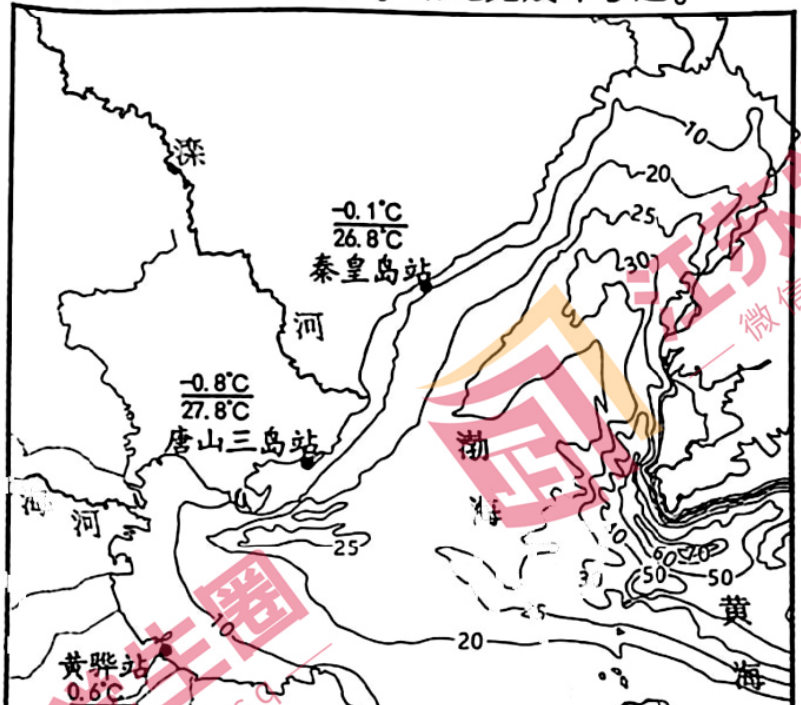
滦
河
-0.1°C
26.8°C
秦皇岛站
-0.8°C
27.8°C
唐山三岛站
海
河
黄骅站
0.6°C
渤
海
黄
海
10
20
25
30
25
10
20
50
60
70
50
30
25

江苏学生圈 微信号：jsgkxsq

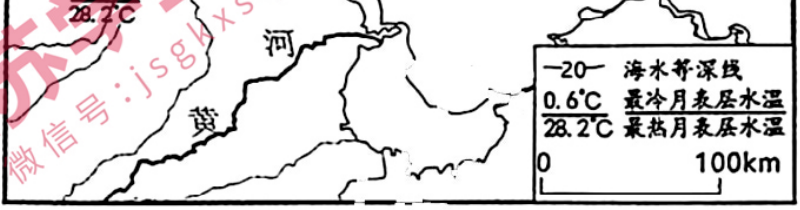
28.2°C
河
黄
—20— 海水等深线
0.6°C 最冷月表层水温
28.2°C 最热月表层水温
0
100km

图 1

4. 三个海洋站表层海水月平均盐度最低值可能出现在

A. 4月　　B. 7月　　C. 8月　　D. 10月

5. 与秦皇岛站相比,唐山三岛站表层水温年较差大,其主要原因是

A. 入海径流较多　　B. 太阳辐射较强　　C. 冬季风力较大　　D. 海水深度较浅

垂直地带性与纬度地带性具有一定的相似性。图 2 为“我国某山地垂直自然带分布示意图”。据此完成 6~7 题。

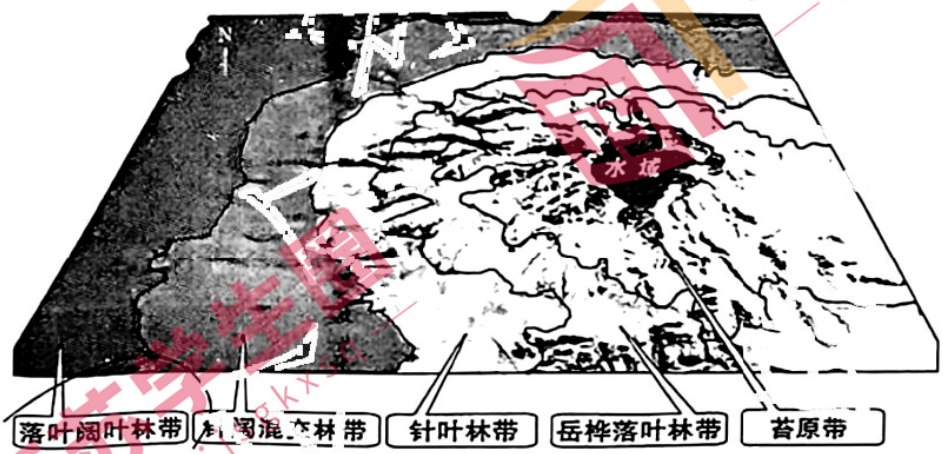
N
水域
落叶阔叶林带
针阔混交林带
针叶林带
岳桦落叶林带
苔原带

图 2

6. 该山地可能是

A. 天山　　B. 祁连山　　C. 长白山　　D. 阴山

与纬度地带性自然带的分布相比,该山地的差异是出现了

A. 苔原带　　B. 岳桦落叶林带　　C. 针叶林带　　D. 针阔混交林带

我国华北某山坡坡顶与坡谷海拔分别约为 2200 m 和 900 m,山谷风显著。图 3 为“某年冬季该山坡不同海拔气象站点山谷风日变化示意图”。据此完成 8~10 题。

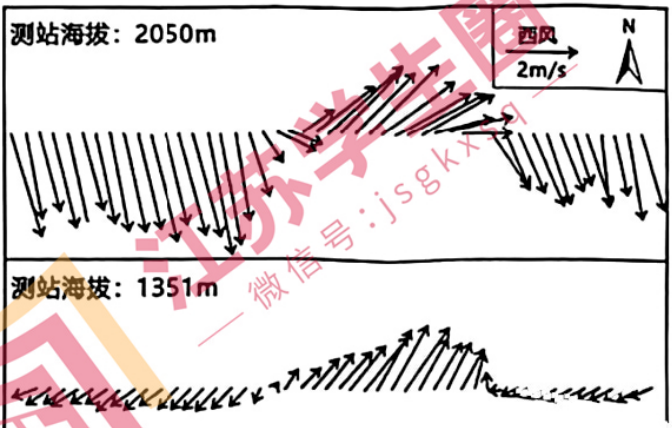

8. 冬季该地谷风出现的主要时段为

A. 日出后至日落前

B. 中午前至日落前

C. 日落后至日出前

D. 日落后至中午前

9. 该山坡的朝向最接近

A. 南　　B. 西

江苏学生圈 微信号:jsgkxsq

C. 东　　D. 北

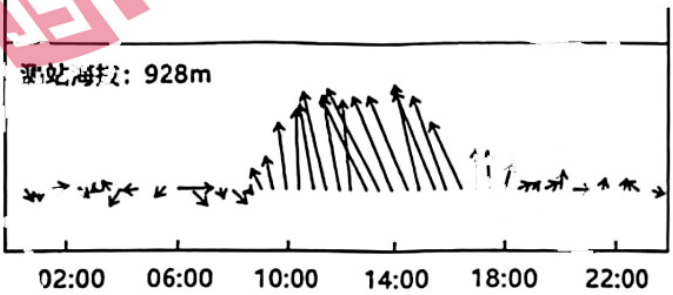

图 3

10. 各站点谷风风向有一定的差异，其主要影响因素是

A. 微地形分布

B. 地转偏向力

C. 谷岭间温差

D. 植被覆盖率

胡焕庸线不仅是我国的人口分界线，也是自然资源分布和生态环境承载力的分界线。有学者为深入研究我国人口分布格局，将胡焕庸线以东区域细化为 3 个梯度。图 4 为“长江经济带胡焕庸亚线分布示意图”。据此完成 11~13 题。

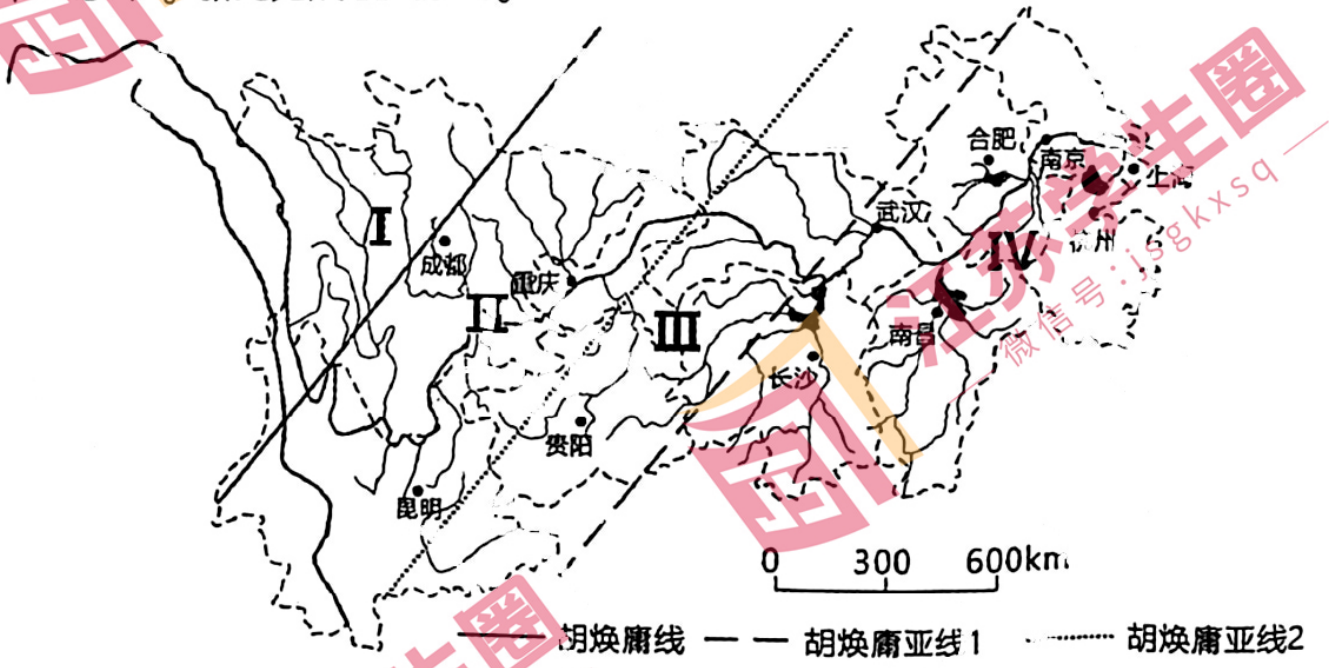
Ⅰ
成都
Ⅱ
重庆
Ⅲ
贵阳
昆明
武汉
长沙
合肥
南京
上海
杭州
Ⅳ
南昌
0
300
600km
胡焕庸线
胡焕庸亚线1
胡焕庸亚线2

图 4

11. 推测长江经济带四区域人口密度由大到小的排序是

A. Ⅳ、Ⅱ、Ⅲ、Ⅰ　　B. Ⅱ、Ⅳ、Ⅲ、Ⅰ　　C. Ⅳ、Ⅲ、Ⅱ、Ⅰ　　D. Ⅱ、Ⅲ、Ⅳ、Ⅰ

12. 影响Ⅱ、Ⅲ区域人口密度差异的主要自然因素是

A. 气候　　B. 地形　　C. 土壤　　D. 河流

13. 提高长江经济带资源环境承载力的有效措施是

A. 加强基础设施建设，促进生产要素流动　　B. 加快自然资源开发，提高资源自给能力

C. 推进“三孩”政策，缓解人口的老龄化　　D. 推广精细农作方式，提升农副产品品质

江苏学生圈 微信号：jsgkxsq

19世纪末，旧金山成为美国加州最大的工业城市。20世纪初，奥克兰承接了该市部分制造业，进入工业化、城市化阶段。图5为“20世纪以来旧金山湾区空间结构演化示意图”。据此完成14~16题。

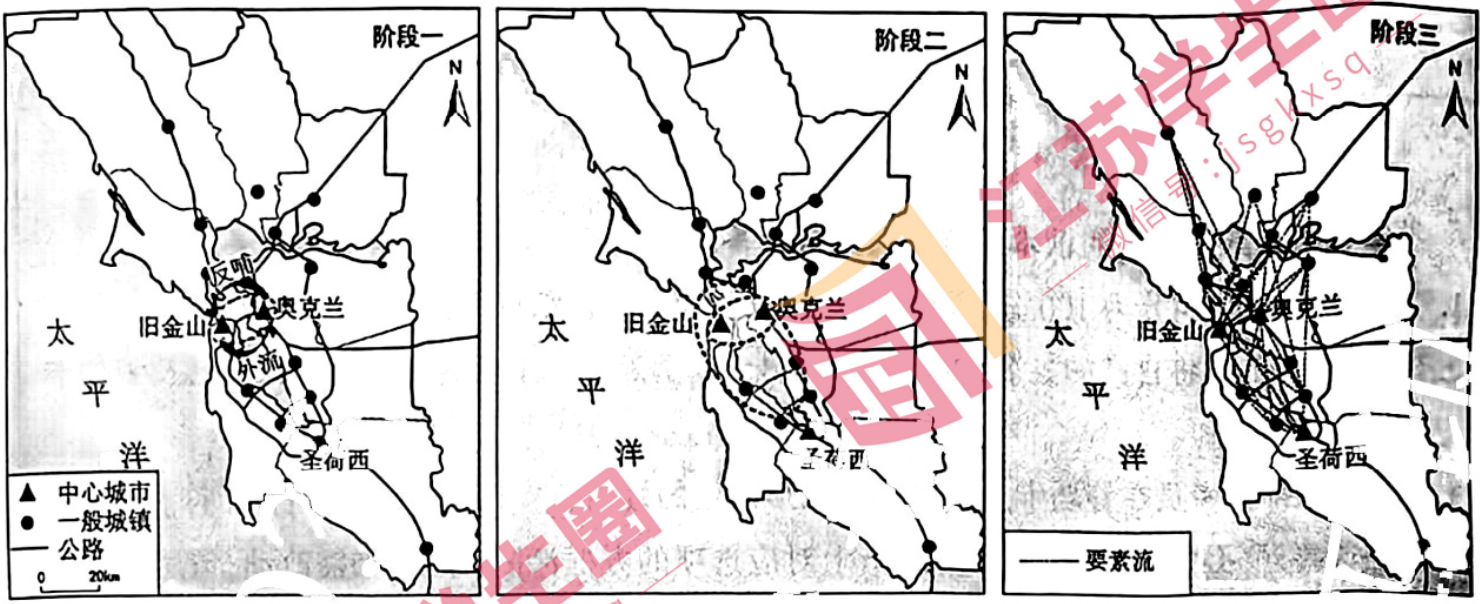
阶段一
阶段二
阶段三
N
反哺
外流
旧金山
奥克兰
圣荷西
太平洋
▲ 中心城市
● 一般城镇
— 公路
0 20km
—— 要素流

图5

14. 20世纪初，奥克兰的主要城市功能为

A. 高端金融　　B. 商贸服务　　C. 生产居住　　D. 总部经济

15. 阶段三，该区域生产要素流动的主要特点是

A. 向心化　　B. 双向化　　C. 外向化　　D. 多向化

16. 阶段一、二、三对应的空间结构依次为

A. 单中心集聚、双核心共生、核心—外围　　B. 双核心共生、核心—外围、泛网络化联动

C. 核心—外围、单中心集聚、泛网络化联动　　D. 泛网络化联动、单中心集聚、双核心共生

哈萨克斯坦地广人稀，有“能源和原材料基地”之称，是中国共建“一带一路”的重要伙伴。2023年2月22日，中国(黑龙江)—哈萨克斯坦贸易促进交流会在阿斯塔纳举行，双方围绕战略合作、采购贸易、项目投资等达成多个合作意向。图6为“哈萨克斯坦与黑龙江位置与地形略图”。据此完成17~19题。

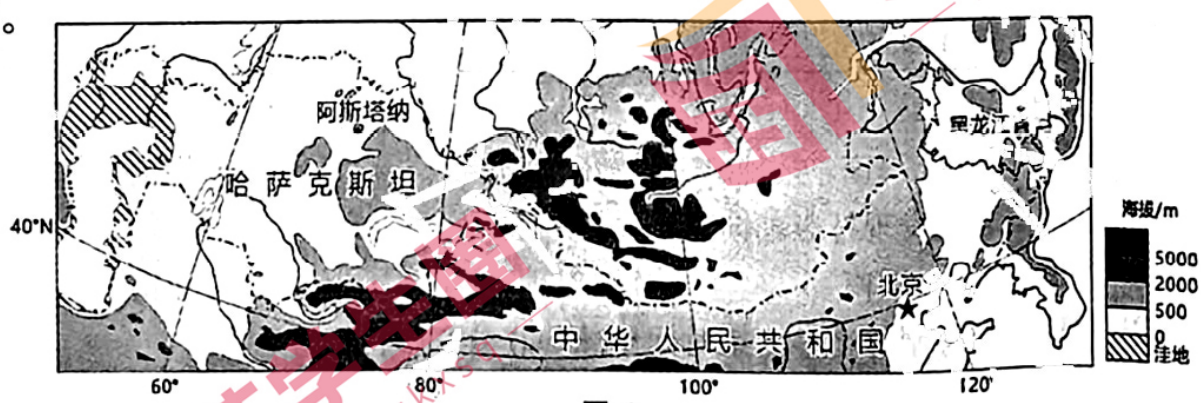
阿斯塔纳
哈萨克斯坦
黑龙江省
北京
中华人民共和国
40°N
60°
80°
100°
120°
海拔/m
5000
2000
500
0
洼地

图6

17. 与哈萨克斯坦相比，黑龙江省的优势自然资源是

A. 光照资源　　B. 土地资源　　C. 草场资源　　D. 淡水资源

18. 哈萨克斯坦从黑龙江主要进口

A. 油气资源　　B. 机电产品　　C. 小麦制品　　D. 棉纺织品

19. 黑龙江与哈萨克斯坦深入开展战略合作对黑龙江的主要意义是

A. 提振产业经济　　B. 缓解生态压力　　C. 加快矿产开发　　D. 保障粮食安全

江苏学生圈 微信号：jsgkxsq

某村位于四川盆地川中丘陵，地势低缓，因地制宜开发利用土地资源的过程中，形成独特的“丘塘林田居”聚落模式，大棚蔬菜、无花果为其主要特色农产品。图7为“该村局部土地利用示意图”。据此完成20~22题。

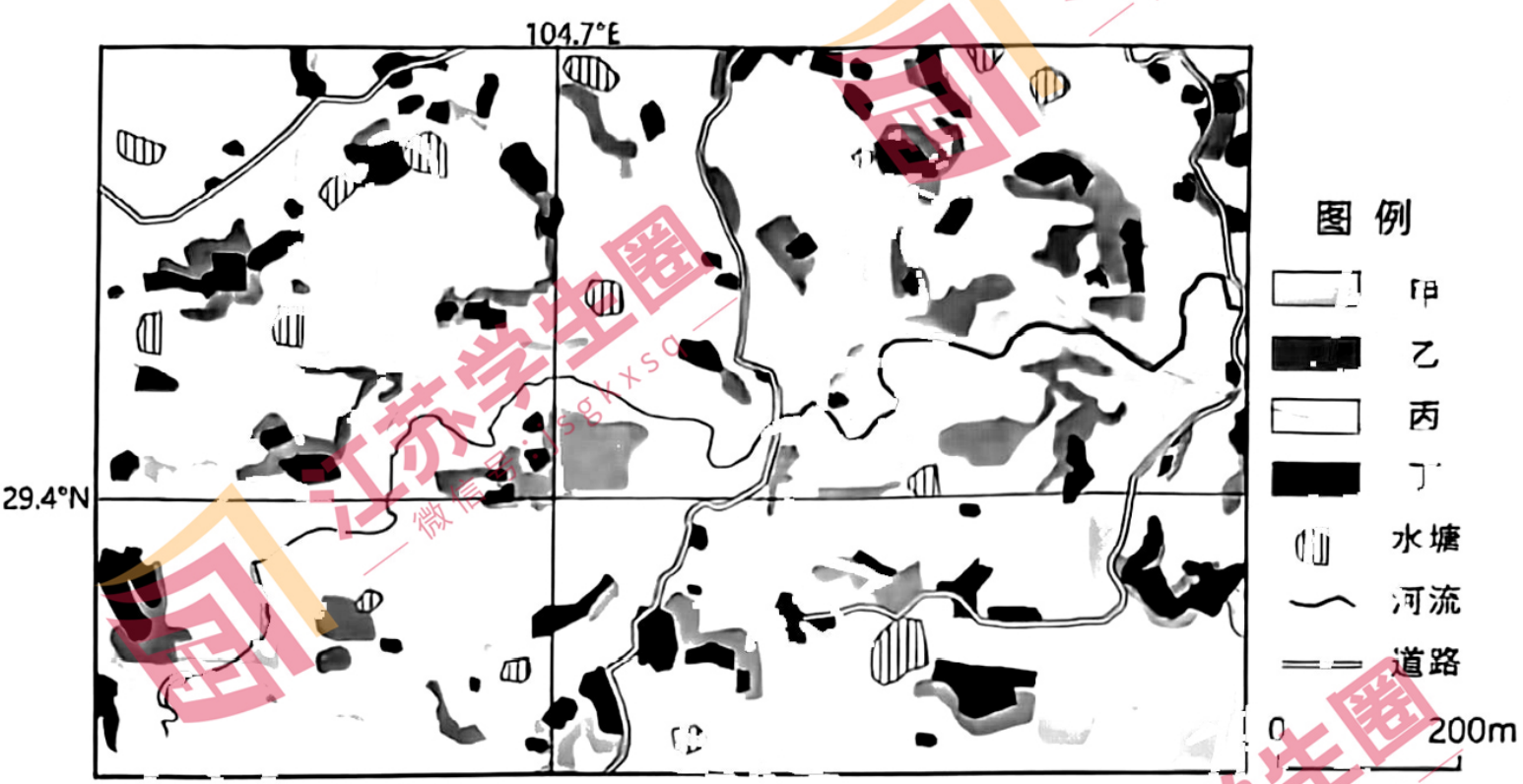
104.7°E
29.4°N
图例
甲
乙
丙
丁
水塘
河流
道路
0
200m

图7

20. 甲、乙、丙、丁所示的土地利用类型依次是

A. 水田、林地、旱地、宅基地　　B. 水田、旱地、宅基地、林地

C. 旱地、林地、水田、宅基地　　D. 旱地、水田、宅基地、林地

21. 影响该地农业发展的主要条件是

A. 地形多样，耕地占比低　　B. 径流量大，水土流失重

C. 降水集中，旱涝灾害多　　D. 红壤贫瘠，农业单产低

22. 该地农业发展的主要方向是

A. 保护生态，实施耕地林地化　　B. 顺坡耕作，实现高度机械化

C. 多种经营，推动农旅融合化　　D. 削丘平地，推进水田旱地化

江苏学生圈 微信号:jsgkxsq

二、非选择题:共 3 题,共 56 分。

23. 阅读材料,回答下列问题。(18 分)

材料一 广东大峡谷长约 15km,深约 300m,峡谷谷顶宽窄不一。大布河两条支流分别从北侧和东侧以瀑布形式流入峡谷,河谷中多跌水、瀑布。早古生代该区域为海洋。该地基底地层属于前寒武纪—早古生代强烈褶皱变质岩系,上覆厚达数百米的泥盆纪、石炭纪地层,志留纪地层缺失。

材料二 图 8 为“广东大峡谷景观照片”,图 9 为“广东大峡谷部分地质年代地层剖面示意图”。



图 8

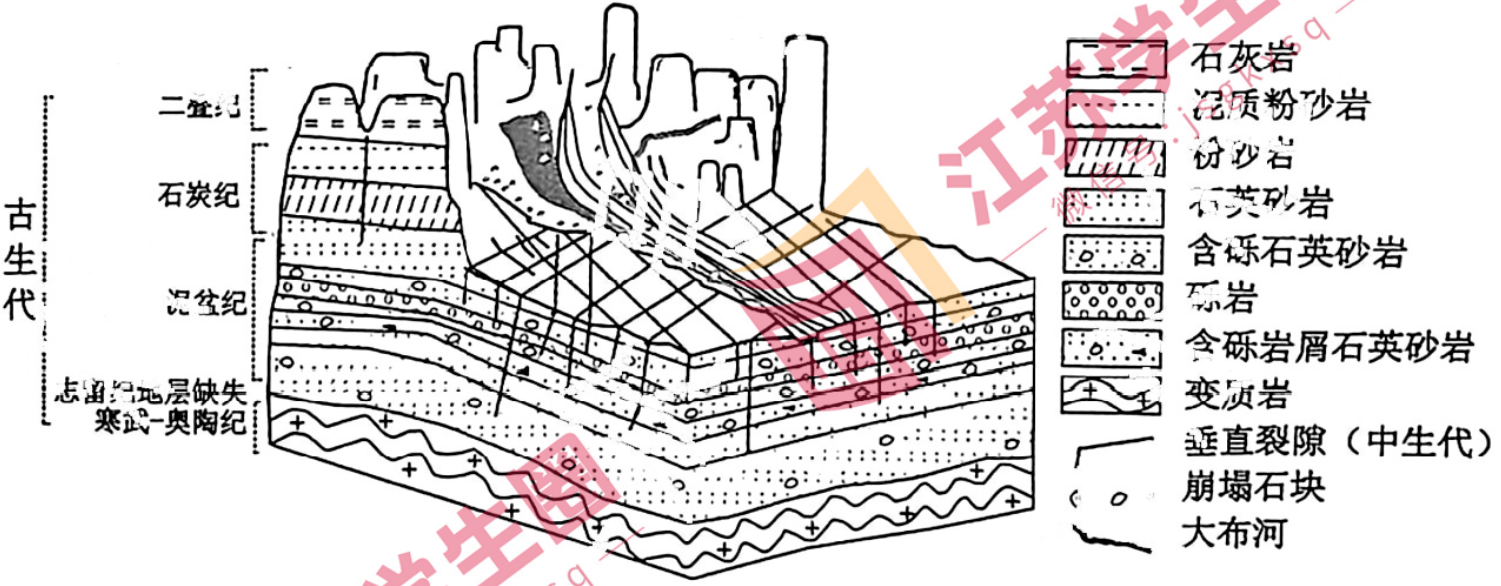
古生代
二叠纪
石炭纪
泥盆纪
志留纪地层缺失
寒武-奥陶纪
石灰岩
泥质粉砂岩
粉砂岩
石英砂岩
含砾石英砂岩
砾岩
含砾岩屑石英砂岩
变质岩
垂直裂隙（中生代）
崩塌石块
大布河

图 9

(1)简述广东大峡谷地貌景观特征。(4 分)

(2)简析古生代不同地质时期内力作用对该地地层形成的影响。(8 分)

(3)说明大布河对广东大峡谷地貌发育的塑造作用。(6 分)

江苏学生圈 微信号: jsgkxsq

24. 阅读材料，回答下列问题。(20 分)

材料一　大都市是规模庞大、经济发达、具有强大辐射带动功能的大城市，是城镇化发展到高级阶段的城市空间组织形式。上海大都市的发展目标是建成具有全球影响力的科技创新中心和国际经济、金融、贸易、航运中心。

材料二　1843 年，上海正式对外开港，随着社会经济的发展，其主港区不断变化。图 10 为“上海港空间演变示意图”。

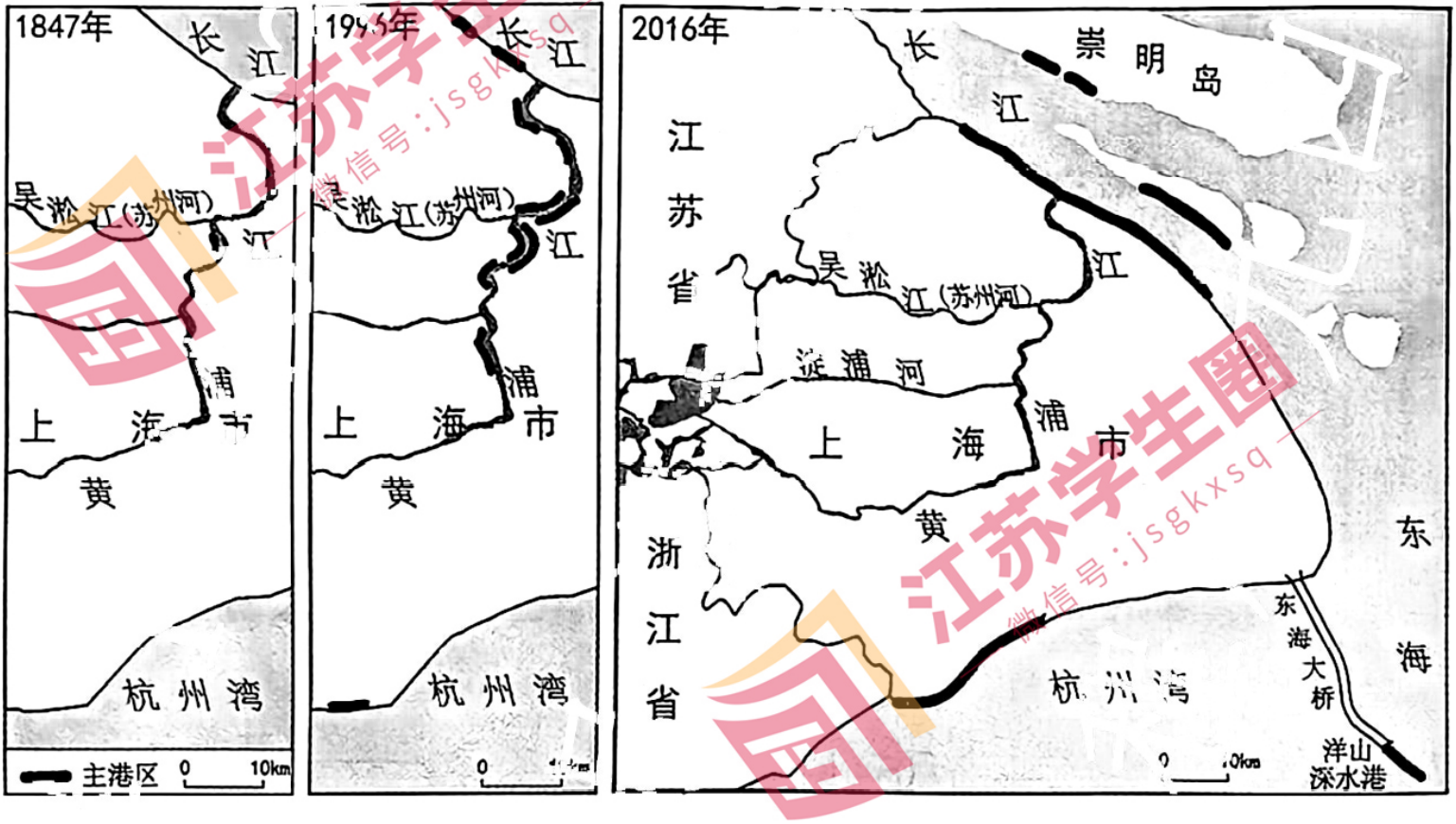
1847年
长江
吴淞江(苏州河)
江
浦
上海市
黄
杭州湾
主港区
0 10km
1945年
长江
吴淞江(苏州河)
江
浦
上海市
黄
杭州湾
0
2016年
长江
崇明岛
江
江苏省
吴淞江(苏州河)
淀浦河
浦
上海市
黄
浙江省
东海
东海大桥
杭州湾
洋山深水港
0 10km

图 10

(1)简述上海港主港区位置变化特点。(6 分)

(2)简析上海港主港区区位变化的原因。(6 分)

(3)说明上海港发展对上海成为大都市的促进作用。(8 分)

江苏学生圈 微信号:jsgkxsq

25. 阅读材料,回答下列问题。(18 分)

材料一 蒙古国平均海拔约 1580 m,年平均降水量约 120~250 mm,主要集中在 7~8 月。该国部分区域土地深受风蚀影响,春、秋两季尤为严重。

材料二 图 11 为“蒙古国植被分布示意图”。

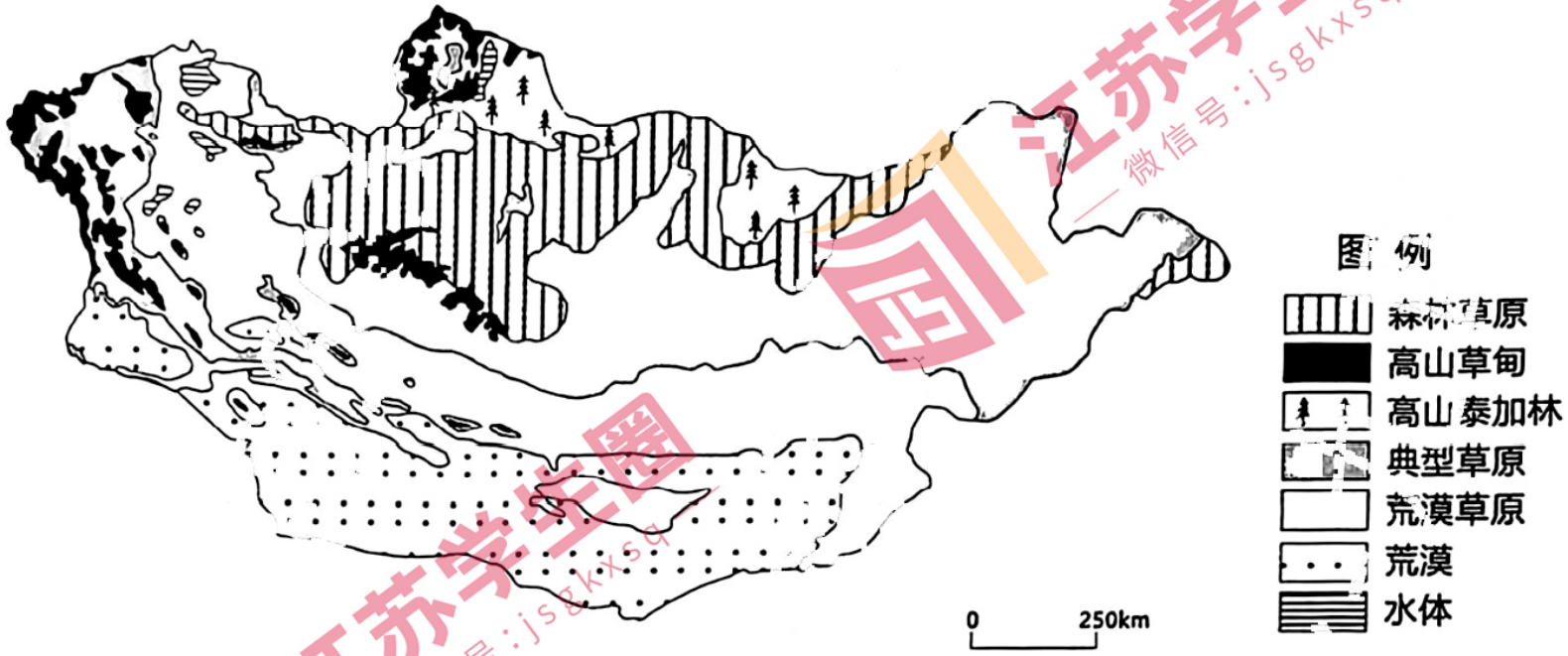
图例
森林草原
高山草甸
高山泰加林
典型草原
荒漠草原
荒漠
水体
0
250km

图 11

(1)简析蒙古国夏、冬两季土壤风蚀较弱的原因。(8 分)

(2)简述土壤风蚀对蒙古国生态环境造成的影响。(6 分)

(3)结合蒙古国农业主要发展方向,为减轻其土壤风蚀提出合理利用该类土地资源的建议。(4 分)

江苏学生圈 微信号:jsgkxsq