2020～2021学年安徽名校第一学期期末联考

文科综合能力测试

注意事项：

1. 答卷前，考生务必将自己的姓名、准考证号填写在答题卡上。
2. 回答选择题时，选出每小题答案后，用铅笔把答题卡对应题目的答案标号涂黑。如需改动，用橡皮擦干净后，再选涂其他答案标号。回答非选择题时，将答案写在答题卡上。写在本试卷上无效。
3. 考试结束后，将本试卷和答题卡一并交回。

一、选择题：本题共35小题，每小题4分，共140分。在每小题给出的四个选项中，只有一项是符合题目要求的。

湄南河发源于泰国西北部的拌邦高原，自北而南地纵贯泰国全境，最后注入曼谷湾，全长1352千米，流域面积17万平方千米，是泰国第一大河。湄南河年内流量变化较大，最大与最小流量相差15010多倍。湄南河河口每年向海方向延伸。右图示意湄南河水系。据此完成1～3题。

1. 湄南河流域水循环最为活跃的时期是
   A. 3～5月　　B. 6～9月
   C. 10～12月　　D. 1～4月
2. 湄南河流域最大与最小流量相差万倍以上，说明其补给水源主要为
   A. 高原冰雪融水　　B. 湖沼水
   C. 雨水　　D. 地下水
3. 湄南河河口每年向海方向延伸，其主要原因是湄南河
   A. 流域植被稀疏，水土流失严重　　B. 地壳不断上升，河流落差增大
   C. 降水逐年增多，河流径流量大　　D. 上游坡陡流急，携带大量泥沙

下图示意山西省气候类型分布。据此完成4～6题。

4. 山西省气候类型划分的主要指标是
   A. 气温　　B. 降水　　C. 季风　　D. 地形

5. 山西省气候类型分界线的走向与

A. 与河流流向一致　　B. 与农耕区边缘重叠

C. 与夏季风风向垂直　　D. 与山脉走向垂直

6. 推测山西省太阳能资源丰富的地区位于其

A. 北部地区　　B. 南部地区　　C. 东部地区　　D. 西部地区

按照联合国标准：一个国家或地区60岁以上老人达到总人口的10%，或65岁以上老人占总人口的7%，则被视为人口老龄化国家或人口老龄化地区。近年来，我国人口老龄化程度不断加深，人口老龄化省际空间分异日趋明显。下表为我国老年人口比例高于全国平均水平的省级行政区排名。据此完成7～8题。

排名	省(区、市)	65岁以上人口(万人)	65岁以上人口比例(%)
1	辽宁省	626.8	14.35
2	上海市	345.78	14.3
3	浙江省	704.92	14.27
4	山东省	1399.8	13.99
5	四川省	1157	13.94
6	江苏省	1073	13.37
7	重庆市	406.54	13.2
8	吉林省	336.42	12.38
9	安徽省	774.3	12.38
10	湖南省	832.9	12.28
11	湖北省	715.64	12.2
12	黑龙江省	455.8	12

7. 我国人口老龄化比例高的省(市)集中分布在

A. 东部沿海地区　　B. 东部季风区

C. 东部平原地区　　D. 中西部地区

8. 东北三省(黑、吉、辽)人口老龄化比例高于全国，其可能的原因是

A. 工业污染严重　　B. 冬季漫长严寒

C. 经济发展缓慢　　D. 人口寿命延长

德国位于欧洲西部，经济发达，人口稠密，但自然资源尤其是能源矿产资源短缺，每年需从邻近国家大量进口煤炭、石油、天然气等，是世界上最大的能源输入地。为了摆脱矿物能源的依赖性，德国长期致力于开发利用新能源，并取得显著成效。据此完成9～11题。

9. 在德国天然气的运输优于煤炭，其原因是天然气的主要运输方式为

A. 铁路运输　　B. 船舶运输　　C. 公路运输　　D. 管道运输

10. 德国天然气的进口多来自邻近国家，主要是因为

①邻国天然气资源丰富　　②同为欧盟国，可减免关税

③运距较短，运费较低　　④文化相近，语言相通

A. ①③　　B. ②④　　C. ②③　　D. ①④

11. 从自然环境特点推测，德国适宜大规模开发的新能源有

A. 太阳能、地热能　　B. 生物能、风能

C. 潮汐能、波浪能　　D. 沼气能、核能

12. 2020 年 11 月 5 日，国家医保局首次组织高值医用耗材冠脉支架集中带量采购，在天津产生拟中选结果。通过竞争，产生拟中选产品 10 个，支架价格从均价 1.3 万元左右下降至 700 元左右，最低报价仅 469 元。导致支架价格大幅下降的原因，可能有

①冠脉支架等高值医用耗材的价格在过去存在严重虚高

②技术进步大幅提高了冠脉支架生产的个别劳动生产率

③集中带量采购决定了买家具有非常强大的价格谈判能力

④因替代产品的大量出现，冠脉支架的使用价值不断降低

A. ①②　　B. ②④　　C. ①③　　D. ③④

13. 习近平总书记近期对新时代推进农村土地制度改革、做好农村承包地管理工作作出重要指示时指出：要运用农村承包地确权登记颁证成果，扎实推进第二轮土地承包到期后再延长 30 年工作，保持农村土地承包关系稳定并长久不变。认真落实总书记的重要指示将有利于

①确保农民有效行使土地所有权　　②维护农民权益，增强农民发展生产的信心

③丰富农民承包权的有效实现形式　　④促进农村土地流转，发展适度规模经营

A. ①②　　B. ②④　　C. ①③　　D. ③④

14. 2020 年 11 月，国务院批准在上海浦东新区开展市场准入"一业一证"试点。所谓"一业一证"，即是将市场主体进入特定行业涉及的多张许可证整合为一张行业综合许可证，实现"一证准营"。开展"一业一证"改革试点

①有助于优化法制化营商环境，激发市场主体活力

②可推动建立统一开放、竞争有序的现代市场体系

③能促进政府转变监管的方式，更好发挥政府作用

④能更好地体现行政手段在宏观调控中的重要地位

A. ①②　　B. ②④　　C. ①③　　D. ③④

15. 历经 8 年谈判，包括我国在内的亚太地区 15 国参与的区域全面经济伙伴关系协定（RCEP）于 2020 年 11 月 15 日正式签署，世界上人口数量最多、成员结构最多元、发展潜力最大的自贸区就此诞生。RCEP 的正式签署

①将有效降低全球经济在发展中出现的不稳定性

②标志着我国更高层次的开放型经济体系已经形成

③表明经济全球化使世界各国的经济联系在一起

④有力捍卫了国际经济合作、多边主义、贸易自由

A. ①②　　B. ②④　　C. ①③　　D. ③④

16. 2020 年 11 月 25 日，生态环境部、商务部、国家发展和改革委员会、海关总署联合发布《关于全面禁止进口固体废物有关事项的公告》。《公告》指出，禁止以任何方式进口固体废物，自 2021 年 1 月 1 日起施行。有关政府部门发布《公告》

①表明坚持依法行政，克服懒政，坚决纠正不作为、乱作为

②反映政府切实履行经济职能，着力树立和维护政府的权威

③旨在推进生态文明建设，为人民创造良好的生产生活环境

④彰显政府部门求真务实，努力使工作经得起各方面的检验

A. ①②　　B. ②④　　C. ①③　　D. ③④

17. 新华社拉萨 2020 年 12 月 30 日报道，国家财政性教育经费 2019 年在西藏投入达 283.76 亿元，比 2010 年翻了两番，10 年来已累计投入 1656.89 亿元，年均增幅 17.96%。国家推动西藏提升办学条件

①有利于保障西藏人民的受教育权，促进西藏的发展与繁荣
②是国家实现现代化和中华民族实现伟大复兴的必然要求
③有助于短期内消除藏族与其他民族文化发展不平衡的状况
④有助于充分满足藏族人民积极参与国家政治生活的愿望
A. ①②　　B. ②④　　C. ①③　　D. ③④

18. 据不完全统计，美国从 2017 年至今，已经退出了多个国际组织。2017 年 1 月，宣布退出跨太平洋伙伴关系协定；2017 年 10 月，宣布退出联合国教科文组织；2019 年 2 月，宣布暂停履行《中导条约》。2019 年的 11 月，宣布退出应对全球气候变化的《巴黎协定》；2020 年 7 月，宣布退出《开放天空条约》。美国频繁地退群和毁约
①对全球战略平衡与稳定构成日益严峻的威胁　②是其综合国力和影响力严重下降的必然结果
③证明为了和平与发展必须改变旧的国际秩序　④为中国在国际社会发挥领导作用带来了机遇
A. ①②　　B. ②④　　C. ①③　　D. ③④

19. 很多人喜欢歌曲《可可托海的牧羊人》。对此，有人说：写歌的人用了脑，唱歌的人用了心，听歌的人用了情，有故事的人流了泪。不怕音乐太好听，就怕歌词入了心。从中得到的启示是
①人们对文化的需求应成为文化创新的动力　②歌曲创作的检验标准在于大众的喜爱程度
③优秀的歌曲应具有特有的感染力和感召力　④歌曲创作要从丰富多彩的生活中汲取营养
A. ①②　　B. ②④　　C. ①③　　D. ③④

20. 内蒙古自治区呼伦贝尔市阿荣旗新发朝鲜族乡东光村为发展本地特色旅游，开展短视频制作大赛，并与"抖音""快手"等短视频平台结合，与平台上有影响力的网红合作，加大宣传力度，终于打开了东光村朝鲜文化的知名度。东光村的成功告诉我们
①现代文化传播要了解、重视互联网传播的规律和作用
②要增强各族人民对共同拥有的中华文化的强烈认同感
③每个地方都有独特的人文风情，要善于发现和推介
④要推动不同区域文化在保持各自特色基础上深度融合
A. ①②　　B. ②④　　C. ①③　　D. ③④

21. 2020 年 10 月 17 日，未成年人保护法修订案经十三届全国人大常委会第二十二次会议表决通过，该法自 2021 年 6 月 1 日起施行。我国现行未成年人保护法制定于 1991 年，2006 年进行了较大幅度修订。此次新修订的未成年人保护法在现行法律的基础上，增加了多项内容，涉及了多个社会热点，条文从 72 条增至 132 条。未成年人保护法的修订历程反映了
①人的认识都是对客观对象的反映　②物质世界是绝对运动和相对静止的统一
③实践不断产生新问题、提出新要求　④实践的发展为人们提供了完善的认识工具
A. ①②　　B. ②③　　C. ①④　　D. ③④

22. 2020 年 10 月 16 日，中共中央政治局召开会议，审议《成渝地区双城经济圈建设规划纲要》，会议指出，突出重庆、成都两个中心城市的协同带动，注重体现区域优势和特色，使成渝地区成为具有全国影响力的重要经济中心、科技创新中心、改革开放新高地、高品质生活宜居地，打造带动全国高质量发展的重要增长极和新的动力源。要建设好成渝地区双城经济圈，要求我们
①掌握系统优化的方法，着眼于事物的部分
②弄清自在事物的联系与人为事物的联系的区别
③善于分析和把握事物存在和发展的各种条件
④用联系的观点看问题，处理好整体与部分关系
A. ①②　　B. ①③　　C. ②④　　D. ③④

23. 2020年8月22日，农业农村部在山西太原召开的全国深化农村集体产权制度改革工作会议上表示：农村集体产权制度改革取得阶段性重要成效。目前，全国有74.5%的村完成农村集体产权制度改革，70.1%的村领到了登记证书。河北、湖南、陕西等11个省份90%以上的村完成改革。深化农村集体产权制度改革有利于

①解决社会各种矛盾，构建和谐社会　　②推动社会主义的自我发展与自我完善

③促进生产力的发展，推动社会进步　　④依法保护公民个人合法财产的所有权

A. ①②　　B. ①④　　C. ②③　　D. ③④

24. 有学者指出：西周分封制是人口的再编组，每一个封君受封的不仅是土地，更重要的是分领了不同的人群。新封的封国，因其与原居民的糅合，而成为地缘性的政治单位。该学者认为，分封制

A. 弱化了西周的统治　　B. 利于促进民族交融

C. 促进了郡县制形成　　D. 加强了中央的集权

25. 右图《石城子遗址》反映的是新疆地区唯一经考古发掘的文化特征鲜明的汉代城址，也是迄今新疆发掘面积最大的一处汉代军事要塞。这一遗址的发现

A. 弥补了新疆地区考古发现的空白　　B. 代表了我国发掘考古的先进水平

C. 提供了汉朝管理西域地区的实证　　D. 印证了汉代推行的民族和亲政策

26. 史载：北宋开封相国寺东门大街是书坊的集中地，有很多书铺，印卖书籍。有的门前高挂"兑(悦)客书坊"的红边白布市招，有的写上"发兑古今书籍"字样，有的许诺只要"读得成句，便以一部相赠"。该记载说明

A. 活字印刷术促进了文化的繁荣　　B. 北宋的文化市场缺乏有效管理

C. 经济发展促进文学艺术的繁荣　　D. 开封书商重视营销手段的运用

27. 下表内容反映了明代遵化地区生铁冶炼成钢铁的情况。它表明当时

明代遵化铁冶钢铁产量

时间（年）	炉名（座）		产量（斤）		递增率（2年）
正德四年（1509）	大鉴炉（个）	10	生铁	486000	
	白作炉（个）	20	熟铁	288000	
			钢铁	62000	
正德六年（1511）	大鉴炉（个）	5	生铁	同上	100%
	白作炉（个）	8	熟铁	同上	150%
			钢铁	同上	

资料来源：李龙潜《明清经济史》，广州：广东高等教育出版社，1988年版，81页。

A. 铁矿业冶炼技术提高较快　　B. 官营手工业得到了快速发展

C. 封建政府限制手工业规模　　D. 冶炼业已出现资本主义萌芽

28. 以下卡片摘录内容是商务印书馆先后两次出版的历史教科书中对洪秀全的评价。导致评价不同的主要原因是

1906年出版的《最新中学中国历史教科书》："自秀全倡乱十六省，蹂躏十六省，法掠受杀，百姓死者，几二千万人。"	1933年出版的《复兴历史教科书》："洪秀全等，因势利导，唤起大众的民族意识，进一步想推翻满清，实行民族革命。"

A. 社会性质的改变　　B. 史料取舍的区别

C. 编写人员的变化　　D. 内外时局的发展

29. 1912年4月，孙中山发表演说，认为马克思学说"则专论资本，谓资本亦为人造，亦应属于公有。"其目的是"为社会大多数谋幸福者也"，"斯即社会主义本经济分配法之原理，而从根本上予以解决也"。该演说表明，孙中山

A. 主张从根本上消灭私有制　　B. 反对将私人资本转为公有
C. 赞同社会主义的分配方法　　D. 拥护中共的民主革命纲领

30. 据统计，1937 年陕甘宁边区进行第一届参议会选举时，投票选民占选民总数的 70%以上，部分地区达到 80%。1941 年第二次参议会选举时，80%的选民参加了投票选举，绥德、清涧、延川等县的参选率高达 95%。这说明，陕甘宁边区
A. 抗日民族统一战线政权进一步巩固　　B. 抗日民主政权的性质发生根本改变
C. 新民主主义革命理论在实践中推广　　D. 广大军民投身抗战的热情不断高涨

31. 1979 年 7 月，国务院下发了《关于扩大国营工业企业经营管理自主权的若干规定》《关于国营企业实行利润留成的规定》等文件，政府向国营企业让渡了生产自主权、产品销售权等 14 项经营权，并实行利润留成制度。这些规定旨在
A. 调整国民经济发展结构　　B. 增强国营企业自身活力
C. 鼓励国有企业引进外资　　D. 全面建立市场经济体制

32. 雅典对官员任职资格审查时，必须考察官员是否孝敬父母。当时的演说词也有陈述：在雅典有明确的法律，禁止有道德缺陷的人在公民大会上发言，其中就包括殴打其父母的人，未给其父母提供食宿的人。这表明，古代雅典
A. 开创了“家国同构”的政治制度　　B. 把孝敬父母作为政绩的内容
C. 重视“齐家”与从政的相互联系　　D. 对官吏的履职能力要求很严

33. 狄德罗主张，国家应当从教会手中把教育管理的权力拿过来普及义务教育，让平民百姓都学会读书算数的本领。大量删削那些无用的古典学科，突出数物化等学科的地位，辅以文学、历史、音乐、图画等科目，大学要突出科技教育。这些主张
A. 强调了科学对教育的决定作用　　B. 否定了文艺复兴的人文主义
C. 确立了法国大革命的政治目标　　D. 蕴含了理性主义的教育思想

34. 在英国，1688 年约有 75%的劳动人口从事农业，1801 年有 35%，1841 年有 23%。同期国民收入中农业的比重，1801 年占 32%，1841 年占 22%，工业所占比重由 23%提高到 34%，加上服务业，1841 年工业比重增加到 78%。这表明，英国工业革命
A. 导致国民经济畸形发展　　B. 加大了农村与城市差距
C. 加快了经济结构的改变　　D. 致使城市人口急剧膨胀

35. 有学者指出：什么是“全球化”呢？渗透到我的 24 小时生活细节里来的，难道是印度或埃及或阿拉伯的影响吗？不是的，仔细看这 24 小时的内容，代表“全球化”的东西中，其实 99%是西方的影响，是西化。材料意在说明
A. 全球化是当今历史发展的必然趋势　　B. 发达国家在全球化中处于主导地位
C. 发展中国家日益受到全球化的危害　　D. 民众的日常生活受到全球化的冲击

二、非选择题：共 160 分。第 36～42 题为必考题，每个试题考生都必须作答。第 43～47 题为选考题，考生根据要求作答。

(一)必考题：共 135 分。

36. 阅读图文材料，完成下列要求。(24 分)

河北衡水市枣强县是中国裘皮制作发源地，有 3000 多年的历史和传承，享有“裘皮之乡”，“天下裘都”之称。改革开放初期，枣强县裘皮产品大多是低端的裘皮褥子等，后来逐渐发展为加工成衣，但款式仅限于模仿，产品附加值不高，品牌效应差，位于产业链最低端。经过不断的产品创新、技术创新、工艺创新让枣强县裘皮产业走向高端。如今枣强县裘皮产业已形成以大营镇为中心，拥有加工企业和摊点 1.4 万家的产业格局。大营裘皮涵盖了生皮、熟皮、半成品、裘皮服装、裘皮饰品、剪绒、工艺品等七大系列 2000 多个品种，吸引着国内 20 多个省市以及韩国、日本、俄罗斯等十几个国家和地区的客商在此云

集，成为全国知名的裘皮生产、加工、销售集散基地。下图示意枣强县位置。

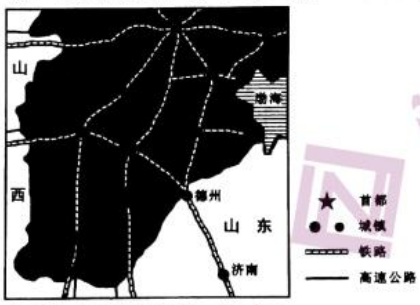

(1)分析枣强县发展裘皮产业的有利区位条件。(6 分)
(2)阐释枣强县裘皮产业集聚于大营镇的好处。(6 分)
(3)推测枣强县为实现裘皮产品、技术、工艺创新所采取的措施。(6 分)
(4)在长期应对"疫情"的背景下，为枣强县裘皮产业发展提出建议。(6 分)

37. 阅读图文材料，完成下列要求。(22 分)

贝加尔湖是世界上最深(最深处为 1642 米)和蓄水量最大(23.6 万亿立方米)的淡水湖，两侧是 1000～2000 米的悬崖峭壁。周围有 336 条河流注入湖中，湖中流出的则仅有安加拉河，其年均流量仅为 1870m/s。贝加尔湖水位呈现较为明显的季节性变化。贝加尔湖湖面常会出现 4 米以上的风浪，天空上很少出现云彩，湖水清澈透明，呈现出蓝天、碧水的景色。贝加尔湖每年有几个月被厚厚的冰层覆盖，春天一到，湖面开始缓慢的融冰过程。贝加尔湖 1 月平均气温－38℃，而冰层下的水温则保持在 3.5℃～4.5℃之间。下图示意贝加尔湖水系。

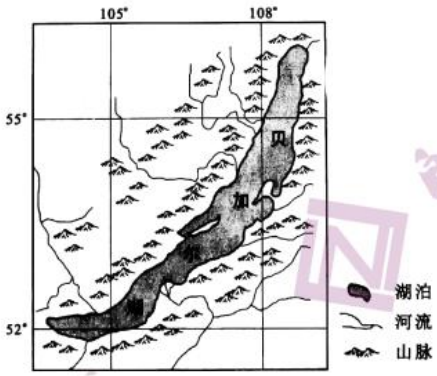

(1)分析贝加尔湖深度与储水量大的主要原因。(8 分)
(2)冬季贝加尔湖冰层以下水温高于湖泊表面气温。就此作出合理解释。(4 分)
(3)推测贝加尔湖水位的季节变化过程。(4 分)
(4)阐释贝加尔湖的天空很少出现云层的原因。(6 分)

38. 阅读材料，完成下列要求。（14 分）

三明多山，大山里讨生活，有没有奔头？习近平在三明调研时指出："山区也要增强信心，我们自有我们的优势，自有我们的长处，发挥好了，同样可以当状元。"

泰宁人从山水中找优势。林深水美的泰宁锚定"旅游兴县"，全县 1/5 的人吃上了"旅游饭"，旅游收入占到了农民纯收入的 1/4。如今，泰宁又让文旅连接康养，从山水牌衍生出"静心"牌，业态愈发丰富。

建宁人在优特上下功夫。建宁人独辟蹊径，从制种业突破。如今全国每 10 粒杂交水稻种子就有 1 粒来自建宁，全县 80%的农户从种稻子转向育种子。"一亩水稻扣除成本只能赚个 100 块左右，换成制种，每亩纯利润可以达到 1600 到 1800 块。"

沙县人则在"舌尖上"闯天地。当年，沙县小吃靠着薄利多销走出大山。目前，沙县小吃门店已有 8.8 万家，本县直接从业人员超过 6 万，辐射带动 30 万人创业致富，年营业额超过 500 亿元，成为沙县支柱产业，被誉为"国民小吃"。眼下，"国民小吃"又在朝着标准化、产业化、品牌化升级，产业链不断延长。

如今，大山环抱的福建省三明市，美的不只是绿水青山，更有百姓的张张笑脸。

结合材料并运用经济知识，分析三明是如何从实际出发，以人民为中心，实现高质量发展的？（14 分）

39. 阅读材料，完成下列要求。（12 分）

全市各互联网企业、党组织和广大网民朋友们：

为践行"开门编规划"理念，广泛凝聚社会各界智慧和共识，进一步科学确定 高质量开展、有力支撑我市"十四五"规划《纲要》编制，充分发挥我市互联网行业及社会各界人士对加快我市发展的积极性和创造性，现公开征集我市"十四五"规划工作课题选题的意见建议。

所提意见建议，要立足我市发展实际，聚焦当前我市经济社会发展中存在的突出问题，认真研判未来形势，分析机遇与挑战，范围包括但不限于："十四五"我市发展环境、战略目标、重点任务、重大改革、重大举措、配套政策等。

感谢您的参与，我们期待您的金点子。

中共某市市委网信办
某市互联网行业党委
2020 年 9 月 15 日

运用政治生活知识，请分析某市征集"十四五"发展规划意见建议如何体现社会主义民主政治？如果你参与这次活动，你认为如何才能提出有质量的建议？（12 分）

40. 阅读材料，完成下列要求。（26 分）

2020 年是深圳经济特区建立 40 周年。

材料一

在石破天惊中实现突进，在敢为人先中寻求突破，特区的"特"就体现在"闯"上——第一个打破平均主义"大锅饭"工资制度、第一家外汇调剂中心成立、第一家股份制保险企业创办……近 40 年里，深圳创出约一千个"国内第一"。坚持市场化为导向，深圳在全国率先建立起社会主义市场经济体制基本框架。

党的十八大后，2013年深圳在全国率先开展商事制度改革。……今天的深圳，已成为一座具有影响力的国际性都市，拥有全球第三大集装箱港、亚洲最大陆路口岸、中国五大航空港之一，拥有华为等8家世界500强企业。

材料二

深圳等经济特区坚持"两手抓、两手都要硬"，在物质文明建设和精神文明建设上都交出了优异答卷。加强理想信念教育，培育和践行社会主义核心价值观，深化中国特色社会主义和中国梦宣传教育。弘扬以爱国主义为核心的民族精神和以改革创新为核心的时代精神，发扬敢闯敢试、敢为人先、埋头苦干的特区精神，激励干部群众勇当新时代的"拓荒牛"。深入开展群众性精神文明创建活动，广泛开展社会公德、职业道德、家庭美德、个人品德教育，不断提升人民文明素养和社会文明程度。加强公共文化设施建设，推动文化产业高质量发展，更好满足了人民精神文化生活新期待。

(1)深圳经济特区是在石破天惊中实现突进，在敢为人先中寻求突破，请运用辩证唯物论的知识对此加以分析。(12分)

(2)结合材料二并运用文化生活的知识说明深圳等经济特区坚持"两手抓、两手都要硬"的必要性。(10分)

(3)如果你今后在深圳工作，你会怎样以自己的力量推动深圳的发展？请提出两点看法。(4分)

41. 阅读材料，完成下列要求。(25分)

材料一

英国公共卫生发展的成就有目共睹。到维多利亚中期，伦敦建设了完善的供水和排水系统，其他城市紧跟伦敦的步伐，英国人口死亡率显著下降。西蒙爵士在给枢密院的报告中指出国家作用的扩大："国家负责对疾病的治疗，免费治疗贫困导致的疾病，在紧急时刻会为感染传染疾之人提供有组织的医学帮助，免费为每个公民接种。"但随着英国公共卫生的发展，传统的个人主义和自由放任的观点均受到挑战。19世纪40年代，议会通过一系列立法，授权卫生总署对水污染等问题采取措施，这就挑战了私营自来水公司的权力。1853年议会通过的《免疫法》规定天花免疫是义务性的，一些人认为这侵犯个人自由，侵犯了家庭的庇护权。不久出现的"反疫苗联盟"就是对抗政府强制接种的产物。

——摘编自赵秀荣《公共卫生领域需要"大政府"》

材料二

新中国成立之初，各种传染病、寄生虫病和地方病严重威胁人民群众的生命健康。20世纪50年代，党中央创造性地提出卫生工作的四项基本方针，即面向工农兵，预防为主，团结中西医，卫生工作与群众运动相结合。1952年，中央成立爱国卫生运动委员会，之后从省市到县乡，都设立了相应的分支机构，负责活动的执行。开展爱国卫生运动期间，采取各种传播手段(如报纸、收音机、小册子、壁报、漫画、展览等)，发动民众参与公共卫生建设，从清扫街道到灭杀害虫，成效明显。天花、霍乱等基本消除，寄生虫病发病率大幅度减少。国民平均预期寿命从1949年的35岁，提高到20世纪80年代初的70岁左右，这段时期的中国基层医疗卫生被誉为世界典范。

——摘编自房连泉《新时代继续发扬爱国卫生运动优良传统》

(1)根据材料一并结合所学知识，概括英国发展公共卫生的特点，并分析阻扰公共卫生发展的主要因素。(10分)

(2)根据材料二并结合所学知识，概述新中国开展爱国卫生运动的主要举措，并简析其意义。(15分)

42. 阅读材料，完成下列要求。(12 分)

材料

关于中国君主专制中央集权制度，海内外学者论述颇丰，叙述各有侧重，如《中国古代君主专制中央集权制度的嬗变》《全面理解封建君主专制主义中央集权制度》《郡县制度：君主专制与中央集权的坚实基石》《北宋强化专制主义中央集权制度之初探》等，这些论文题目反映了作者对中国君主专制中央集权制度的理解。

结合所学知识，就中国古代君主专制中央集权制度的某一方面，自拟论题，并运用史实予以论述。(要求：论证充分，史实准确，表述清晰。)

(二)选考题：共 25 分。请考生从 2 道地理题、3 道历史题中每科任选一题作答。并用 2B 铅笔在答题卡上将所选题目对应的题号方框涂黑。按所涂题号进行评分，不涂、多涂均按每科所答第一题评分；多答按每科所答第一题评分。

43. [地理——选修 3：旅游地理](10 分)

内蒙古阿尔山市白狼镇位于大兴安岭腹地，这里的人们祖祖辈辈靠砍树卖钱，森林遭到了严重破坏。近年来，白狼林业局开始实施天然林保护工程，在森林植被恢复过程中，依托森林资源，发展鹿的养殖业(见下图)，形成了著名的"鹿村"，并探索出一条集特色种养殖观光、大兴安岭动植物观赏和林区特色餐饮于一体的旅游特色道路，极大促进当地社会经济发展。

分析内蒙古阿尔金市在保护的基础上，合理开发利用森林资源发展旅游业的成功经验。

44. [地理——选修 6：环境保护](10 分)

农业生态园就是采用生态园模式进行观光园内农业的布局和生产，将农业活动、自然风光、科技示范、休闲娱乐、环境保护等融为一体，实现生态效益、经济效益与社会效益的统一。下图为某农业生态园生态链循环模式图。

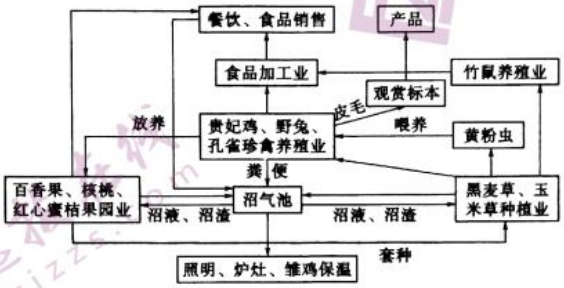

分析该农业生态园在带来社会经济效益的同时，获得的显著生态效益。

45.[历史——选修1:历史上重大改革回眸](15分)

材料

中华民国政府部分农业法规和条例

法规条例和颁布时间	主要内容
国有荒地承垦条例(1914年)	个人和法人均可承垦国有荒地;承垦人于承垦前须按承垦地亩交纳保证金,若承垦后满一年尚未开垦者,即撤销其承垦权,保证金概不返还;承垦人按每年竣垦亩数缴纳地价,并于竣垦一年后,按竣垦亩数,照各该地之税则升科。
植棉制糖牧羊奖励条例(1914年)	凡扩充植棉者,每亩奖银2角,改良植棉者,每亩奖银3角;凡种植制糖原料者,蔗田每亩补助蔗苗银3角、肥料银6角,甜菜田每亩补助甜菜种银1角,肥料银3角;凡牧场改良羊种者,每百头奖银30元。
造林奖励条例(1915年)	造林在200亩至3000亩以上者,分五级给予荣誉奖励,对"凡经营特种林业与国际贸易有重大关系者,或胜造船筑路等各种大工程之用者,农商部认为有被助之必要时,得按其面积株数核给奖金"

——摘编自范丽丽《北洋政府时期的农业法规》等

(1)根据材料,概括民国初期,政府在发展农业方面采取的措施。(6分)

(2)根据材料并结合所学知识,简析材料中发展农业措施的意义。(9分)

46.[历史——选修3:20世纪的战争与和平](15分)

材料

1950年6月,朝鲜内战爆发,美国纠集"联合国军"进行武装干涉,并派第七舰队侵入台湾海峡。侵朝美军越过三八线,轰炸中国东北边境,直接威胁到新中国的安全。虽然新中国正面临着巩固政权、恢复经济的紧急任务,但应朝鲜的请求,中共中央做出了抗美援朝、保家卫国的历史性决策。1950年10月,中国人民志愿军奉命开赴朝鲜战场,与朝鲜人民并肩作战。经过三年的相持,双方于1953年7月签署停战协定,抗美援朝战争取得伟大胜利。在这场战争中,志愿军中涌现了无数英雄人物:罗盛教、黄继光、邱少云、毛岸英……为了朝鲜人民,为了履行国际主义义务,他们长眠在朝鲜的土地上。同时,国内掀起轰轰烈烈的抗美援朝运动。全国人民踊跃参军参战,捐献物资,慰问志愿军,订立爱国公约,开展增产节约运动,有力地支援了前方作战。习近平总书记指出:"伟大抗美援朝精神跨越时空、历久弥新,必须永续传承、世代发扬。"

——摘自新华社《新中国峥嵘岁月·抗美援朝 保家卫国》

(1)根据材料并结合所学知识,简析新中国取得抗美援朝战争胜利的意义。(8分)

(2)根据材料并结合所学知识,概括抗美援朝战争锻造的伟大精神。(7分)

47.[历史——选修4:中外历史人物评说](15分)

材料

颜真卿,少孤,母亲殷氏躬加教育。既长,博学工辞章,事亲孝。开元年间,考中进士科,升任为监察御史,出使河、陇。当时五原有个冤案长期没能判决,气候又干旱,颜真卿辨明冤情判决后就下了大雨,本郡人称作"御史雨",又出使河东,上奏弹劾朔方令郑延祚母亲去世三十年而不入葬,有诏书命令终身不予录用,听说者肃然起敬。安禄山初露叛心时,颜真卿预料他定会叛乱,假托久遭阴雨,于是修补城墙

疏通护城河，挑选丁壮，充实府库。每天与宾客泛舟饮酒，以消安禄山之疑。后安禄山反叛，唯独平原城守护完备。在朝中端庄严肃，他刚正有礼，非公言直道，不萌于心。天下不以姓名称，而独曰鲁公。像李正己、田神功等人，都是他任用提拔的，后来都有功劳。从政的风雨历程和唐朝的急剧变化，也锤炼了颜真卿的书法艺术，他擅长正、草书，笔力遒劲曲折，世间当做珍品流传。

——摘编自《旧唐书·颜真卿传》等

(1)根据材料并结合所学知识，简析影响颜真卿建功立业的主要因素。(8分)

(2)根据材料并结合所学知识，评述颜真卿事迹中体现出的家国情怀。(7分)

2020—2021 学年安徽名校第一学期期末联考

高三政治参考答案

题号	12	13	14	15	16	17
答案	C	B	C	D	D	A
题号	18	19	20	21	22	23
答案	C	D	C	B	D	C

12. C 【解析】支架价格的大幅下降，一个原因是其过去的价格虚高，存在大幅降价的空间，二是集中带量采购，使得买家（国家医保局）处于近乎垄断的地位，因而具有非常强大的价格谈判能力，①③正确。②错误，价格变化与个别劳动生产率无直接联系。④错误，冠脉支架的使用价值没有改变。

13. B 【解析】本题考查集体经济。①错误，农村土地所有权属于集体所有。③错误，题干是稳定土地承包关系，因而没有涉及丰富农民承包权的有效实现形式问题。

14. C 【解析】实行市场准入"一业一证"，能减少重复申报、实现标准规则统一，因而能大幅降低行业准入成本，从而有助于优化法制化营商环境，激发市场主体活力，①正确。多张许可证整合为一张行业综合许可证，政府监管方式将随之改变，市场与政府关系优化，政府作用得到更好发挥，③正确。题干涉及市场准入问题，没有涉及现代市场体系问题，②与题无关。题干没有行政手段，④错误。

15. D 【解析】历经 8 年谈判，表明 RCEP 来之不易，其原因是经济全球化使世界各国的经济联系在一起，其成果是有力捍卫了国际经济合作、多边主义、贸易自由，③④正确。①错误，RCEP 的正式签署是经济全球化发展的结果，而经济全球化会加剧全球经济的不稳定性。②错误，我国更高层次的开放型经济体系是初步形成，同时该题肢与题干无关。

16. D 【解析】过去允许进口固体废物，是有历史的原因，并不是不作为、乱作为，①错误。题干反映的是政府履行生态文明建设职能，不是经济职能，同时树立和维护政府的权威不是政府的履行职能的目的，是结果，②错误。

17. A 【解析】③错误，藏族与其他民族文化发展不平衡的状况是历史上遗留下来的，但在短期内难以消除。藏族人民文化素质的提高，是藏族人民积极参与国家政治的必要条件，但不是充分条件，④错误。

18. C 【解析】美国频繁地退群和毁约是对全球战略平衡与稳定构成日益严峻的威胁，也证明了为了和平与发展必须反对美国的强权政治和霸权主义，改变旧的国际秩序，①③正确。②错误，美国的综合国力和影响力没有严重下降。④错误，中国现在并不具备领导世界的国力。

19. D 【解析】"不怕音乐太好听，就怕歌词入了心"表明优秀的歌曲应具有特有的感染力和感召力；"有故事的人流了泪"表明歌曲创作要从丰富多彩的生活中汲取营养，③④正确。①错误，社会实践是文化创新的动力。②错误，歌曲创作的检验标准在于推动社会实践。

20. C 【解析】"开展短视频制作大赛，并与'抖音''快手'等短视频平台结合，与平台上有影响力的网红合作"告诉我们现代文化传播要了解、重视互联网传播的规律和作用，①正确。打开了东光村"朝鲜文化"的知名度，表明每个地方都有独特的人文风情，对此要善于发现和推介，③正确。②④与题无关。

21. B 【解析】未成年人保护法的修订"历程"表明未成年人保护法在稳定中有增删，其原因时既有相对静止，又有绝对运动，在物质世界的绝对运动中，实践不断产生新问题、提出新要求，从而要求对法律进行修订，②③正确。①④与题无关。

22. D 【解析】"注重体现区域优势和特色"体现了善于分析和把握事物存在和发展的各种条件的观点；"使成渝地区成为具有全国影响力的重要经济中心、科技创新中心、改革开放新高地、高品质生活宜居地，打造带动全国高质量发展的重要增长极和新的动力源"表明要用联系的观点看问题，处理好整体与部分关系，③④正确。①错误，掌握系统优化的方法，必须着眼于事物的整体。②与题无关。

23. C 【解析】农村集体产权制度改革属于改革生产关系，因而有利于促进生产力的发展，推动社会进步，从而进一步推动社会主义的自我发展与自我完善，②③正确。①与题无关。④错误，农村集体产权制度改革，并不是将集体资产变成个人财产，集体经济的性质没有变。

官方微信公众号：zizzsw　咨询热线：010-5601 9830
官方网站：www.zizzs.com　微信客服：zizzs2018

38.(14分)

①新时代我国社会的主要矛盾是人民日益增长的美好生活需要和不平衡不充分的发展之间的矛盾。三明市为了满足人民日益增长的美好生活需要，破解发展难题，厚植发展优势，努力推动经济高质量发展；(5分)

②泰宁人坚持新发展理念，实现绿色发展，坚定走生产发展、生活富裕、生态良好的文明发展道路，打出山水牌，衍生"静心"牌，形成了节约资源和保护环境的空间格局、产业结构、生产方式、生活方式。(3分)

③建宁人深化供给侧结构性改革，独辟蹊径，从制种业突破，全县80%的农户从种稻子转向育种子，实现了经济效益的巨大提升。(3分)

④沙县人积极适应市场需求，大力发展实体经济，做大做强饮食产业，不仅扩大了就业，而且增加了居民收入。(3分)

(学生如从其它角度回答，言之成理，亦可赋分。)

39.(12分)

①人民民主专政的本质是人民当家作主。某市向互联网行业及社会各界人士征集建议反映了社会主义民主是最广泛、最真实、最管用的民主，有利于推进决策的民主化、科学化；(3分)社会主义民主政治是党的领导、依法治国、人民当家作主的有机统一。中国共产党领导是中国特色社会主义最本质的特征，是中国特色社会主义制度的最大优势。党的机关出面征集建议，既反映了党是领导一切的，也反映了中国共产党坚持以人民为中心，坚持群众路线，把人民当家作主落实到国家政治生活和社会生活。(3分)

②作为网民，要提出有质量的建议，首先要激发自己的公民意识、主人翁意识，不断增强自己的社会责任感，自觉地服从和维护国家利益；(2分)其次要关心社会事务和国家大事，学习基本的政治知识，不断增强自身的政治素质，提高参与政治生活的能力；(2分)再次要积极进行调查研究，认真听取周围群众的意见和要求，同时与公务人员、人大代表、政协委员、专家学者等进行沟通，接受他们的指导。(2分)

40.(26分)

(1)①深圳经济特区充分发挥人的意识能动性，深圳人在意识指导下能动地改造世界，在近40年里，深圳创出约一千个"国内第一"；深圳人重视意识对于人体生理活动的调节和控制作用，打破平均主义，激发人的潜能；(6分)

②规律是客观的，是不以人的意志为转移的。深圳经济特区在发展过程中尊重客观规律，坚持以市场化为导向推动改革开放；(3分)

③深圳经济特区在发展中不断解放思想，与时俱进，随着社会的发展，不断推出适应时代需要的改革措施。(3分)

(2)①文化作为一种精神力量，能够在人们认识世界、改造世界的过程中转化为物质力量，对社会发展产生深刻的影响。坚持"两手抓、两手都要硬"，促使人们物质与精神都富有，推动个人与社会的发展；(4分)

②文化与经济相互影响。坚持"两手抓、两手都要硬"，加强精神文明建设，从而为经济发展提供正确的方向保证、不竭的精神动力和强大的智力支持；(3分)

③随着经济社会发展和人民生活水平的提高，丰富多彩的文化生活越来越成为我国人民的热切愿望。坚持"两手抓、两手都要硬"，有利于更好地满足人民群众日益增长的美好生活需要。(3分)

(本题具有较大的开放性，学生可以从很多角度回答，只要言之成理，均可得分。)

(3)示例：学习雷锋精神，积极参加志愿服务；

弘扬传统文化，推动深圳文化繁荣。

官方微信公众号：zizzsw　咨询热线：010-5601 9830
官方网站：www.zizzs.com　微信客服：zizzs2018

2020-2021 学年安徽名校第一学期期末联考

历史参考答案

题号	24	25	26	27	28	29	30	31
答案	B	C	D	A	D	C	A	B
题号	32	33	34	35				
答案	C	D	C	B				

24.B【解析】本题考查先秦政治制度。根据材料中分封制使封君分领了不同的人群，新封的封国，因其与原居民的糅合等信息可知，分封制利于促进民族交融，故 B 项正确。据所学知识可知，分封制有利于维护西周统治，排除 A 项。C、D 两项与史实不符，也与材料信息不符。

25.C【解析】本题考查汉代的边疆管理。据材料信息石城子遗址是"汉代城址""汉代军事要塞"，说明它为汉代管理新疆地区即西域提供了实证，故 C 项正确。材料并没有信息说明新疆没有考古发现，排除 A 项；B 项的先进水平无法体现，材料与和亲没有联系，排除 D 项。

26.D【解析】本题考查宋代文化。市招都是卖书广告，但内容并不相同，可见开封书商重视营销手段的运用，故 D 项符合题意。据材料信息无法判断书铺印卖的书籍是雕版印刷，还是活字印刷，排除 A 项，书铺门前挂市招不等于缺乏有效管理，排除 B 项；只说卖书，无法判断是什么类型的书籍，故 C 项依据不足。

27.A【解析】由表内数据可知，两年中，炼炉大幅度减少，而冶炼能力并没有下降，产量没有减少，这说明明朝的冶炼技术有了很大提高，故 A 项正确。无法判断图表中的矿炉是官营还是私营，排除 B 项；材料仅涉及数量减少，无法得出限制规模的结论，排除 C 项；冶炼业内容的劳动关系无法判定是否为雇佣关系，故 D 项排除。

28.D【解析】本题考查太平天国运动。结合题意和所学知识可知之所以 1906 年全面否定洪秀全，是因为当时仍是清朝统治；1933 年已经建立国民政府，正值内外矛盾交织，阶级矛盾逐步减弱、九一八事变后，民族矛盾不断上升时期，因此这些不同的因素主要在于国内外环境的发展，故 D 项正确。社会性质没有改变，史料都是针对太平天国运动，是相同的，故 A 项和 B 项错误，排除；无法确定编写人员的变化，即使变化也不是主要因素，故排除 C 项。

29.C【解析】据材料信息可知，孙中山赞同的是马克思学说的资本公有，认为这是从根本上予以解决民生问题的经济分配法，故 C 项符合题意。A 项与孙中山的资产阶级革命思想不符，排除；B 项对材料理解错误，排除；D 项在 1923 年，时间不符，排除。

30.A【解析】根据所学知识可知，陕甘宁边区参议会选举是民主选举，建立的政权是抗日民族统一战线性质的政权，选民参选人数的比例扩大，表明这一政权得到了人民的拥护，拥有广泛的群众基础，故 A 项正确。B 项中性质发生根本改变与史实不符；材料是政权建设，不是革命理论，同时，毛泽东提出新民主主义革命理论在 1943 年，时间也不符，排除 C 项；D 项中投身抗战的热情与材料信息不符。

31.B【解析】本题考查从计划经济到市场经济。文件中让渡了生产自主权、产品销售权，实行利润留成制度，扩大企业的财权，使得国有企业经营者和生产者有了生产积极性和主动性，这也是国务院下发文件的意图所在，故 B 项正确。下发的文件只涉及国有企业，故排除 A 项；C 项不符合材料信息，D 项在 1992 年十四大之后，时间不符。

32.C【解析】本题考查雅典民主制度。据材料可知，作为雅典官吏必须在家庭讲究父母子女伦常规范并以此作为基本的资格审查内容，然后才可以从政，可见，C 项符合题意。A 项开创了家国同构的政治制度属于中国封建社会的儒家学说，故与雅典民主政治制度史实不符；B 项对材料信息理解错误，这是对官员的资格审查，不是政绩；D 项中的"履职能力"材料中没有体现。

33.D【解析】本题考查启蒙运动。据所学知识可知狄德罗是法国启蒙思想家，他的教育主张蕴含了理性主义的教育思想，如让平民百姓都学会读书算数、突出数物化等学科的地位等，据此得出 D 项正确。A 项对材料理解错误；B 项与启蒙运动相悖；C 项与法国大革命推翻封建专制统治的史实不符。

34.C【解析】本题考查英国工业革命。材料数据表明，工业革命后，英国工业的地位已大大超过农业，改变了以前以农业为主的经济结构。工业的迅速增长和较高利润，吸引了越来越多的资本和劳动力。工业已从原来附属于农业的地位，上升为举足轻重的国民经济部门。故 C 项正确。A 项的畸形发展无法得到信息依据；B 项中的城乡差距在材料中没有体现；D 项中城市人口急剧膨胀与材料无关。

35.B【解析】本题考查经济全球化。据材料可知，全球化的现实99%是西方的影响，是西化，故可以判断出在全球化过程中，发达国家在全球化中处于主导地位，B项正确。A项虽然符合现实，但与题意不符；C项在材料中没有涉及到；D项对材料理解片面。

41.（25分）

（1）特点：政府直接干预，扩大国家作用，注重公益性；依法发展公共卫生；重视公共卫生基础性工程建设。（6分）

因素：传统的个人主义和自由主义的观念；私营企业和既得利益者。（4分）

（2）举措：党中央统一领导，层层负责；提出明确的工作方针；采取各种传播手段广泛宣传；发动民众参与公共卫生建设；宣传与主动防治疾病结合。（10分）

意义：大幅减少了各类流行病，保障了人民群众的生命健康；引导人民群众广泛参与，初步建立了共防共治的体系；为当前防治新冠疫情提供了有益的借鉴。（5分，言之成理即可）

42.（12分）

【答案示例1】

论题：秦朝建立君主专制中央集权制度具有必然性。（2分）

论述：首先是维护封建经济基础的需要。封建经济的主体是个体的小农经济，它需要一个强有力的国家政权，以维护国家的统一和社会的安定，保证小农经济的生产和再生产；其次是巩固、维护国家统一的需要，秦在统一全国后建立专制主义中央集权制度，以消除地方割据势力，维护国家统一；三是法家思想奠定理论基础。韩非子总结诸子百家学说，创造了一套完整的中央集权政治理论，为奠定理论基础；第四，秦统一中国后，疆域扩大，吸取分封制的教训，需要通过郡县制加强对各地的管理。（8分）

结论：综上所述，经济、政治、思想和自然环境等多种因素表明，秦朝君主专制中央集权制度的建立，是当时历史发展的必然产物。（2分）

【答案示例2】

论题：应辩证认识古代君主专制中央集权制度（2分）

论述：古代君主专制中央集权制度从秦朝建立到辛亥革命结束，曾发挥过很多积极作用。它有利于多民族封建专制国家的建立、巩固和发展，维护祖国统一与领土完整；能有效地组织人力、物力和财力从事大规模的生产活动和经济建设，促进社会经济的发展；在统一的环境下，各民族的交融和经济文化交流不断加强，使古代中国为人类创造高度物质文明和精神文明的制度保证。但皇权专制极易形成暴政、腐败现象，是阻碍历史发展的因素；在思想上独尊一家，钳制了思想，压抑了创造力；在封建社会末期，阻碍了新兴的资本主义生产关系萌芽的发展，束缚了社会生产力的发展，妨碍了中国社会的进步。（8分）

结论：综上可见，应以历史唯物主义观点评价君主专制中央集权制度，既要肯定其进步作用，也要认识到其消极影响。（2分）

45.（15分）

（1）鼓励垦荒，扩大耕地；保育农业，奖励经济作物和牧业生产；鼓励造林，改善环境。（6分）

（2）这些奖励政策，有利于扩大耕地面积，增加农业产量；促进农业的多种经营，为轻工业开发原料；有助于农业改造生态环境的改善，也刺激了农民种植经济作物、从事牧业和植树造林的积极性。（9分）

46.（15分）

（1）意义：抵御了美帝国主义侵略扩张，沉重打击了其霸权主义；捍卫了新中国的安全，保卫了中国人民和平生活，展示了中国人民不畏强暴的钢铁意志；稳定了朝鲜半岛局势，维护了亚洲和世界和平；鼓舞了世界被压迫民族和人民争取民族独立和人民解放的正义事业。（8分）

（2）为了祖国和人民利益而奋不顾身的爱国主义精神；在前线英勇顽强、舍生忘死的革命英雄主义精神；为了人类和平与正义事业而奋斗的国际主义精神；中国人民万众一心敢于战斗的团结抗争精神。（7分，答出三点6分，四点7分）

47.（15分）

（1）主要因素：科举制度为其提供入仕的机会；在平定安史之乱斗争中，体现出其有勇有谋的才能；儒家传统思想熏染了其道德品行；家庭教育和对书法艺术的追求提升了其人生境界。（8分）

（2）家国情怀：重视孝悌，如事亲孝；关心民生，如决冤狱；忠君爱国，如与安禄山的斗争；为官公正，如非公言直道，不萌于心；任人唯贤，如多人皆真卿始招起之，后皆有功。（6分，答出三点6分，四点7分）

2020-2021 学年第一学期期末联考

高三地理参考答案

题号	1	2	3	4	5	6	7	8	9	10	11
答案	B	C	D	B	C	A	B	C	D	C	B

1．B【解析】根据泰国、缅甸、老挝等国的相对位置判断，湄南河流域受热带季风气候影响，每年的 10～次年 5 月为降水少的旱季，6～9 月受西南季风影响，为雨季。该季节降水量大，降水次数多，湄南河受其影响，水循环周期变短，水循环量增大，可为最活跃的时期。选项 B 正确。

2．C【解析】河流主要补给类型中唯有雨水补给最不稳定。结合上题可知，湄南河流域最大与最小流量相差万倍以上的主要原因是降水的季节变化大，说明湄南河的补给水源主要为雨水。选项 C 正确。

3．D【解析】雨季，丰沛的降水使河流流量大增，上游坡度流急，冲刷力和携带泥沙的能力大，大量泥沙带至河口，随流速减慢，大量沉积，促使河口向海方向延伸。选项 D 正确。

4．B【解析】由山西省东南部为半湿润地区，西北部为半干旱地区可知，山西省气候类型划分的主要指标是降水。选项 B 正确。

5．C【解析】图中气候分界线为东北—西南走向，恰好与东南季风风向垂直。选项 C 正确。

6．A【解析】根据气候条件判断，山西省西北部地区气候比较干燥，晴朗天气多，大气对太阳辐射的削弱作用弱，太阳能资源丰富，考虑到东北部有山脉分布，海拔高等因素，山西省的北部地区太阳能资源丰富。选项 A 正确。

7．B【解析】由表可知，12 个省级行政区基本位于东部季风区。选项 B 正确。

8．C【解析】东北三省为我国的老工业区，因近年来产业转型升级速度较慢，经济发展速度较慢，导致就业岗位少，居民收入低，青壮年劳动力大量外出打工经商。选项 C 正确。

9．D【解析】与水运、铁路、公路等运输方式相比，管道运输具有运输连续性强、运输方便、运输安全性高等优点。由此推测德国天然气运入的主要方式是管道运输。选项 D 正确。

10．C【解析】德国与北海沿岸国家为邻，这些国家石油、天然气资源丰富；因同为欧盟国家，可减免关税。选项 C 正确。

11．B【解析】德国所邻海域不宽阔，也没有位于板块交界处，不具有开发利用海洋能和地热能的优势；终年气温偏低，不利于开发沼气；但植物和农作物秸秆丰富，受西风影响，风能资源丰富。选项 B 正确。

36．（24 分）

（1）裘皮产业历史悠久，拥有一批素质较高的专业人才和工人技师；县政府一直支持裘皮产业发展，出台了一系列促进裘皮产业发展的优惠扶持政策；地处京津冀经济圈，交通发达，高端市场广阔。（每点 2 分，共 6 分。言之有理，酌情给分）

（2）枣强县裘皮产业集聚在该县的大营镇的好处是共享完善的基础设施和公共服务设施；节省中间产品的交易和运输费用，减低生产成本；产业链分工的细化，利于提高企业生产率；利于企业间信息、技术交

官方微信公众号：zizzsw　咨询热线：010-5601 9830
官方网站：www.zizzs.com　微信客服：zizzs2018

流，促进技术创新，增强市场竞争力；企业集聚对外地相关人才产生磁场效应。（每点 2 分，共 6 分。言之有理，酌情给分）

（3）与专业高等院校和科研机构对接；建立裘皮产业研发设计中心，广纳专业人才；组织企业到裘皮产业发达的国家或企业进行参观、学习、交流，并进行长期合作；鼓励企业拨出专款进行研发与创新。（每点 2 分，共 6 分。言之有理，酌情给分）

（4）政府应颁布实施优惠政策，大力推动产业转型升级，扩大品牌效应，进一步增强市场竞争力；扩大电商销售规模，创新销售方式；开发悠久的裘皮文化元素，发展旅游业，推动文旅商融合发展。（每点 2 分，共 6 分。言之有理，酌情给分）

37. （22 分）

（1）地壳运动使贝加尔湖地区岩层发生断裂错位，周围岩块上升形成高大山脉，中间岩块断裂下陷形成深邃的洼地；（2 分）周围河流汇入，积水量大，形成深度较大的湖泊；（2 分）汇入河流众多，流入河流仅有一条，且流量不大，（2 分）使更多水体储存于湖泊中，成为储水量最大的湖泊。（2 分）

（2）湖泊水体比热容较大，透光率高，夏半年太阳辐射多，储存热量多；（2 分）冬季厚厚的冰层让太阳光透过进入湖泊，却阻止热量散失，对冰层以下的水体起到保温作用，使冰层下的水温高于冰层以上的气温。（2 分）

（3）冬季水位下降，至 5 月份水位最低；（2 分）6 月之后，水位上升，8 月水位最高，随后水位继续下降。（2 分）

（4）贝加尔湖深居内陆，受温带大陆性气候影响，空气湿度小；（2 分）周围被山脉阻挡，聚集在这里的气团必经山脉而入，气团在经过沿岸山脉时下沉增温，不易形成云层；（2 分）该地风力强劲，即便有成云的条件，也在强大的风力下，吹得云消雾散。（2 分）

43.（10 分）

森林植被的恢复营造出绿水青山的美丽景观，利用美丽的山水景观发展生态旅游业；（3 分）茂密森林带来的氧吧效应，发展康养业；（2 分）依托当地的气候和森林资源发展鹿养殖业，促进养殖观光旅游业发展，探索出一条鹿+旅游的特色道路；（3 分）林区林产品种类繁多，食料来源丰富，烹饪技艺独特，利用其发展特色餐饮旅游业。（2 分）

44. （10 分）

种植业、养殖业、食品加工业和餐饮业的废弃物通过沼气池，实现废弃物能源化和资源化，减少环境污染；（3 分）农田和果园施用沼液和沼渣等有机肥料，减少化肥施用量，保护了土壤，提高了土壤肥力；（2 分）果园业、养殖业和种植业的均衡发展，保护植被，提高植被涵养水源、保持水土、调节气候等生态功能，营造了绿水青山的良好生态环境；（3 分）果草套种，平衡土壤养分，提高土地利用率。（2 分）

官方微信公众号：zizzsw　咨询热线：010-5601 9830
官方网站：www.zizzs.com　微信客服：zizzs2018

关于我们

自主选拔在线是致力于提供新高考生涯规划、强基计划、综合评价、三位一体、学科竞赛等政策资讯的升学服务平台。总部坐落于北京，旗下拥有网站（http://www.zizzs.com/）和微信公众平台等媒体矩阵，用户群体涵盖全国90%以上的重点中学师生及家长，在全国新高考、自主选拔领域首屈一指。

如需第一时间获取相关资讯及备考指南，请关注**自主选拔在线**官方微信号：**zizzsw**。

关注后获取更多资料：

回复“答题模板”，即可获取《高中九科试卷的解题技巧和答题模版》

回复“必背知识点”,即可获取《高考考前必背知识点》